

IBPS RRB सहायक मेन मेमोरी आधारित पेपर पीडीएफ

Powered by :

gradeup

निर्देश (1-5): *निम्नलिखित जानकारी का ध्यानपूर्वक अध्ययन करें तथा नीचे दिए गए प्रश्नों के उत्तर दें।*

एक परिवार के आठ सदस्य A, B, C, D, E, F, G और H एक गोलाकार मेज के चारों ओर समान दूरी पर बैठे हैं, लेकिन आवश्यक नहीं है कि इसी क्रम में हों। उनमें से कुछ का मुख केंद्र की ओर है और कुछ का केन्द्र से बाहर की ओर है अर्थात केंद्र के विपरीत है। C, F की दाईं ओर से दूसरे स्थान पर बैठता है, F का मुख केंद्र की ओर है। A, C की माता है। C और B के बीच केवल दो लोग बैठे हैं अर्थात C के दाईं ओर या बाईं ओर। D की बेटी G, C की दाईं ओर से दूसरे स्थान पर बैठी है। कोई भी महिला H की तत्काल पड़ोसी नहीं है। A की माता H, B की तुरंत दाईं ओर बैठी है। G और B का मुख विपरीत दिशाओं में है। वह जो G के तुरंत साथ बैठा है उसका मुख समान दिशा में है। C, E की बहन है। F, E के पिता हैं। A के भाई D और E के बीच केवल तीन व्यक्ति बैठे हैं। न तो D न ही A, F का एक तत्काल पड़ोसी है। E, A की दाईं ओर से दूसरे स्थान पर बैठता है। E, B की माता है। H और E दोनों का मुख C की विपरीत दिशाओं में है। C, A के पति का एक तत्काल पड़ोसी नहीं है।

1. इनमें से कौन सा व्यक्ति के तुरंतर दाईं ओर D बैठता है?
   A. G B. H
   C. या तो विकल्प A या B D. दोनों विकल्प A और B
   E. इनमें से कोई नहीं
2. कितने व्यक्तियों का मुख बाहर की ओर है?
   A. दो B. तीन
   C. चार D. पांच
   E. इनमें से कोई नहीं
3. परिवार में कितनी महिलाएं हैं ?
   A. दो B. तीन
   C. चार D. पांच
   E. इनमें से कोई नहीं
4. E तथा उसके अंकल के बीच कितने व्यक्ति बैठे हैं, जब E के दाएँ और से गिनते है?
   A. दो B. तीन
   C. चार D. पांच
   E. इनमें से कोई नहीं
5. F की सास कौन है?
   A. A B. G
   C. B D. H
   E. इनमें से कोई नहीं
6. **निर्देश**: नीचे दिए गए प्रश्नों के प्रत्येक समूह में दो निष्कर्षों के बादपांच कथन दिए गए हैं। आपको कथन के सही सेट का चयन करना होगा जो दिए गए निष्कर्षों को तर्कसंगत रूप से संतुष्ट करता हो।

   निष्कर्ष:
   I. कुछ मोबाइल, ब्रांडेड हैं।
   II. सभी गैजेट के ब्रांडेड होने की संभावना है।

   कथन:
   I.सभी गैजेट, महंगे हैं। सभी महंगे, ब्रांडेड हैं। कोई मोबाइल, ब्रांडेड नहीं है।
   II.कोई गैजेट, महंगा नहीं है। कुछ महंगे, ब्रांडेड हैं। सभी मोबाइल, ब्रांडेड हैं।
   III.कुछ गैजेट, महंगे हैं। कोई महंगा, ब्रांडेड नहीं है। कुछ मोबाइल, ब्रांडेड हैं।
   IV. कोई गैजेट, महंगा नहीं है। कुछ महंगे, मोबाइल हैं। कुछ मोबाइल, महंगे हैं।
   V. सभी गैजेट, महंगे हैं। कोई महंगे, ब्रांडेड नहीं हैं। कुछ मोबाइल, ब्रांडेड हैं।

   A. केवल कथन III B. केवल कथन V.
   C. केवल कथन II. D. केवल कथन IV.
   E. केवल कथन I.
7. **निर्देश**: नीचे दिए गए प्रश्नों के प्रत्येक समूह में दो निष्कर्षों के बादपांच कथन दिए गए हैं। आपको कथन के सही सेट का चयन करना होगा जो दिए गए निष्कर्षों को तर्कसंगत रूप से संतुष्ट करता हो।

   निष्कर्ष:
   I.सभी खेल के हॉकी होने की संभावना है।
   II.कुछ मैच, हॉकी नहीं हैं।

   कथन:
   I. कुछ खेल, क्रिकेट हैं। सभी क्रिकेट, मैच हैं। कुछ मैच, हॉकी हैं।
   II.कुछ खेल, क्रिकेट हैं। कोई क्रिकेट, मैच नहीं है। कुछ मैच, हॉकी हैं।
   III.कुछ खेल, क्रिकेट हैं। कुछ क्रिकेट, मैच हैं। कोई मैच,

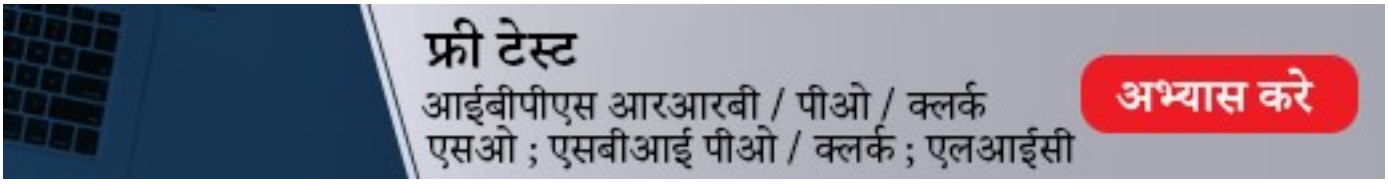

हॉकी नहीं है।

IV. सभी खेल, क्रिकेट हैं। सभी क्रिकेट, मैच हैं। कुछ मैच, हॉकी हैं।

V. सभी खेल, क्रिकेट हैं। कुछ खेल, मैच हैं। कोई मैच, हॉकी नहीं है।

A. केवल कथन I. B. केवल कथन V.

C. केवल कथन IV. D. केवल कथन III.

E. केवल कथन II.

8. **निर्देश**: नीचे दिए गए प्रश्नों के प्रत्येक समूह में दो निष्कर्षों के बाद पांच कथन दिए गए हैं। आपको कथन के सही सेट का चयन करना होगा जो दिए गए निष्कर्षों को तर्कसंगत रूप से संतुष्ट करता हो।

निष्कर्ष:

I. कुछ रेडियो कार नहीं हैं।

II. कुछ बाइक रेडियो हैं।

कथन:

I. कुछ कार बाइक हैं। कोई बाइक रेडियो नहीं है। कुछ रेडियो पतंग = चार्जर हैं।

II. कोई कार बाइक नहीं है। सभी बाइक पतंग हैं। कुछ पतंग रेडियो हैं।

III. सभी कार बाइक हैं। कोई बाइक रेडियो नहीं है। कुछ रेडियो पतंग है।

IV. कोई कार बाइक नहीं है। कुछ बाइक पतंग हैं। सभी पतंग रेडियो हैं।

V. कुछ बाइक कार हैं। कोई बाइक पतंग नहीं है। कुछ पतंग रेडियो हैं।

A. केवल कथन III B. केवल कथन I

C. कथन III और V दोनों D. केवल कथन IV

E. कथन II और IV दोनों

9. **निर्देश**: नीचे दिए गए प्रश्नों के प्रत्येक समूह में दो निष्कर्षों के बाद पांच कथन दिए गए हैं। आपको कथन के सही सेट का चयन करना होगा जो दिए गए निष्कर्षों को तर्कसंगत रूप से संतुष्ट करता हो।

निष्कर्ष:

I. सभी पंखों के बैड होने की संभावना है।

II. कोई पंखा पेपर नहीं है।

कथन:

I. कुछ पंखे जूते हैं। कोई जूता पेपर नहीं है। सभी पेपर बैड हैं।

II. कुछ पंखे जूते हैं। कोई जूता पेपर नहीं है। कुछ पेपर बैड हैं।

III. सभी पंखे जूते हैं। कोई जूता पेपर नहीं है। सभी पेपर बैड हैं

IV. कोई पंखा पेपर नहीं है। कुछ पेपर जूते हैं। सभी बैड पेपर हैं।

V. सभी पंखे जूते हैं। कोई जूता पेपर नहीं है। सभी बैड पेपर हैं।

A. कथन III और IV दोनों B. केवल कथन III

C. कथन I और V दोनों D. केवल कथन V

E. केवल कथन I

10. **निर्देश**: नीचे दिए गए प्रश्नों के प्रत्येक समूह में दो निष्कर्षों के बाद पांच कथन दिए गए हैं। आपको कथन के सही सेट का चयन करना होगा जो दिए गए निष्कर्षों को तर्कसंगत रूप से संतुष्ट करता हो।

निष्कर्ष:

I. कुछ K, R हैं।

II. कुछ Z, F नहीं हैं।

कथन:

I. कुछ Z, R हैं कुछ R, K हैं। कोई K, F नहीं है।

II. कुछ Z, R हैं। सभी R, K हैं। कोई K, F नहीं है।

III. सभी Z, R हैं। सभी R, K हैं। कुछ K, F हैं।

IV. सभी Z, R हैं। कुछ R, K हैं। कोई K, F नहीं है।

V. कुछ Z, R हैं। कुछ R, K हैं। कोई R, F नहीं है।

A. कथन II और V दोनों B. केवल कथन III

C. केवल कथन I D. कथन II और III दोनों

E. केवल कथन IV

निर्देश (11-15): निम्नलिखित जानकारी का ध्यानपूर्वक अध्ययन करें और अनुसरण करने वाले प्रश्नों के उत्तर दें:

P, Q, R, S, T, V और W विभिन्न रंगों अर्थात् काले, सिल्वर, लाल, गुलाबी, पीले और हरे रंग के सात विभिन्न बक्से हैं लेकिन आवश्यक नहीं है कि इसी क्रम में हों।

बॉक्स S पीले रंग के बॉक्स के तुरंत ऊपर है। गुलाबी और सिल्वर रंग के बॉक्स के बीच तीन से अधिक बॉक्स हैं। बॉक्स Q और बॉक्स T के बीच दो बॉक्स हैं। बॉक्स T और बॉक्स W के बीच केवल एक बॉक्स है। बॉक्सW और

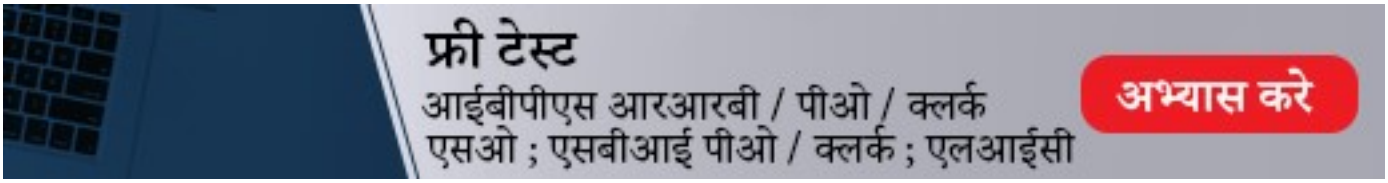

बॉक्स P, जो काले रंग का है के बीच तीन बॉक्स हैं। बॉक्स P और बॉक्स R, जो सफेद रंग का है के बीच केवल दो बॉक्स हैं। सिल्वर रंग का बॉक्स, बॉक्स W के तुरंत ऊपर है। पीले और गुलाबी रंग के बॉक्स के बीच तीन से अधिक बॉक्स हैं। T लाल रंग का बॉक्स है।

11. कौन सा बॉक्स पीले रंग का है ?
A. Q B. S
C. V D. W
E. P

12. हरे रंग के बॉक्स और सिल्वर रंग के बॉक्स के बीच कितने बॉक्स हैं?
A. एक B. दो
C. तीन D. चार
E. कोई नहीं

13. बॉक्स Q किस रंग का है?
A. सिल्वर B. हरा
C. पीला D. काला
E. गुलाबी

14. लाल रंग के बॉक्स से तुरंत ऊपर कौन सा बॉक्स रखा गया है?
A. P B. S
C. R D. T
E. W

15. बॉक्स W और बॉक्स Q के बीच कितने बॉक्स हैं?
A. कोई नहीं B. एक
C. दो D. तीन
E. चार

निर्देश (16-18): निम्नलिखित प्रश्नों के उत्तर दें। एक व्यक्ति मैप पर एक नया घर पता ढूंढ रहा है और वह तद्नुसार जाता है। वह अपनी दाईं ओर मुड़ने से पहले पश्चिम में 90 मीटर जाता है। वह इस बिंदु से 50 मीटर दूर अपने चाचा के घर के पास घर देखने के लिए पुन: अपनी दाईं ओर मुड़ने से पहले 20मीटर जाता है। यहां से वह गली में अपने नए घर पहुंचने से पहले 100मीटर दक्षिण में जाता है। अपने नए घर पर पहुंचने के बाद वह दुकान पर जाता है जहां से वह दाईं ओर मुड़ने पहले 80 मीटर उत्तर में जाता है और फिर 60 मीटर जाता है।

16. प्रारंभिक बिंदु और उसके नई घर की जगह के बीच सबसे छोटी दूरी क्या है?
A. 45 B. 29√5
C. 40√5 D. 70√9
E. उपरोक्त में से कोई नहीं

17. दुकान और उसके नएं घर की जगह के बीच सबसे छोटी दूरी क्या है?
A. 80 B. 100
C. 50 D. 60
E. 120

18. उसके नएं घर के संदर्भ में प्रारम्भिक बिंदु की दिशा क्या है?
A. उत्तर B. उत्तर-पश्चिम
C. उत्तर-पूर्व D. दक्षिण-पश्चिम
E. उपरोक्त में से कोई नहीं

निर्देश (19-21): नीचे दी गई जानकारी का अध्ययन करें तथा उसके आधार पर प्रश्नों के उत्तर दें।
सात व्यक्ति अर्थात् P, Q, R, S, T, U तथाV एक ही परिवार से संबंधित हैं। यह तीन पीढ़ी का परिवार है तथा परिवार में दो जोड़े हैं। R, U के पिता हैं। P, Sकी माता है। R का विवाह T से हुआ है। T,P की बहू है। V,Rके पिता हैं। U एक पुरूष है। T की केवल एक पुत्री है। P की कोई पुत्री नहीं है।

19. P, S से किस प्रकार संबंधित है?
A. पिता B. बहन
C. दादी D. माता
E. चाची

20. परिवार में कितने पुरूष सदस्य हैं?
A. 1 B. 2
C. 3 D. 4
E. 5

21. U, S से किस प्रकार संबंधित है?
A. भतीजा B. भतीजी
C. चाचा D. भाई
E. पुत्र

निर्देश (22-26): नीचे दिए गए प्रत्येक प्रश्न में एक प्रश्न और दो कथन संख्या I और II दिए गए हैं। आपको यह तय करना होगा कि कथन में प्रदान किया गया डेटा प्रश्न का उत्तर देने के लिए पर्याप्त है या नहीं। सभी तीन कथनों को पढ़ें और उत्तर दें।

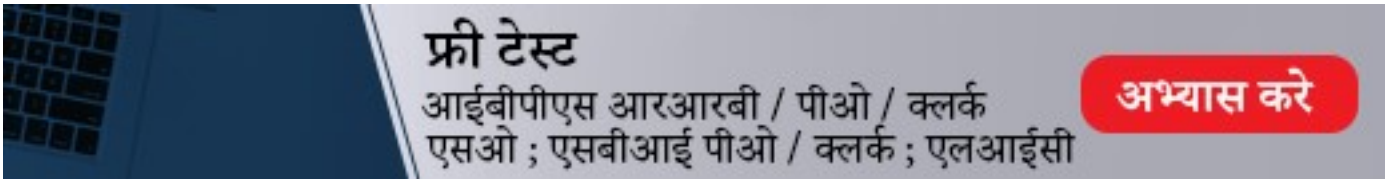

Digits/symbols	8	%	3	7	9	$	1	@	©	2	#	5	6	*	&	!
Letter code	P	M	I	T	R	Q	J	H	A	E	U	N	B	G	L	S

i) यदि समूह में पहला तत्व एक प्रतीक है और अंतिम तत्व एक अंक है, तो कोडों को आपस में बदला जाता है।

ii) यदि समूह में पहला तत्व एक अंक है और अंतिम तत्व एक प्रतीक है, तो दोनों को अंक के लिए कोड़ के रूप में कोड़ित किया जाता है।

iii) यदि पहला और अंतिम तत्व दोनों सम अंक हैं तो दोनों को 'X' के रूप में कोड़ित किया जाता है।

iv) यदि पहला और अंतिम तत्व दोनों विषम अंक हैं तो दोनों को 'Y' के रूप में कोड़ित किया जाता है।

22. 8 % © 9 3 *
A. PMFTIL B. PMFTIP
C. BMFTIB D. XMFTIX
E. इनमें से कोई नहीं

23. $ 1 8 9 6 ©
A. RQJTNH B. QJPRBA
C. RQJTNR D. YQJTNY
E. इनमें से कोई नहीं

24. 2 * # 8 3 6
A. YBEJIY B. ABEJIN
C. NBEJIA D. XGUPIX
E. इनमें से कोई नहीं

25. 8 7 3 2 @ 9
A. FTIERH B. PTIREH
C. PTIEHR D. XBEJIX
E. इनमें से कोई नहीं

26. 7 # $ % 3 5
A. YUQMIY B. XUQMIX
C. YQUIMY D. YUQMIX
E. इनमें से कोई नहीं

निर्देश (27-31): नीचे दी गई जानकारी को ध्यानपूर्वक पढ़ें और इन पर आधारित प्रश्नों के उत्तर दें।

आठ व्यक्ति A, B, C, D, E, F, G और H एक सीधी पंक्ति में उत्तर दिशा की ओर मुख करके बैठे हैं। D, A का पिता है और A के दाहिने तीसरे स्थान पर है। E, C की पत्नी है जो कि A का भाई है। C, A के बांये दूसरा बैठा है। D और C किसी किनारे पर नहीं बैठे हैं। F की माता, A के बांये तीसरी है। G, H की माता है। E, G के बांये तीसरा है। E, C का पड़ोसी नहीं है। D की पत्नी, D के ठीक दाहिने बैठी है। H की पुत्री, H के बांये तीसरी बैठी है। D की केवल एक पुत्री है।

27. निम्नलिखित में से कौन A के ठीक बांये बैठा है?
A. C B. B
C. F D. D
E. G

28. G, A से किस प्रकार संबंधित है?
A. पिता B. बहन
C. माता D. दादी
E. भाई

29. D, A के दाहिने दूसरे स्थान पर बैठे व्यक्ति से किस प्रकार संबंधित है?
A. पिता B. बहन
C. माता D. दादी
E. भाई

30. निम्नलिखित में से कौन सा जोड़ा पंक्ति के किनारों पर बैठा है?
A. B और D B. A और G
C. H और G D. B और G
E. B और H

31. निम्नलिखित में से कौन सा कथन सत्य है?
A. A, C का भाई है।
B. E और D के बीच में दो व्यक्ति बैठे हैं।
C. कोई सत्य नहीं है
D. B, F की माता है।
E. H, G के दाहिने दूसरे स्थान पर है।

निर्देश (32-33): निम्नलिखित सूचना को ध्यानपूर्वक पढ़ें और प्रश्नों के उत्तर दें|

'A * B' का अर्थ है A, B से छोटा नहीं है'
'A @ B' का अर्थ है 'A, B से न तो छोटा है न बराबर है'
'A $ B' का अर्थ है 'A, B से न तो बड़ा है न बराबर है'
'A % B' का अर्थ है A, B से बड़ा नही है
'A # B' का अर्थ है 'A, B से न तो बड़ा है न ही छोटा है'

निम्नलिखित प्रत्येक प्रश्न में कथन को सत्य मानते हुए ज्ञात करना है की दिया गया कौन सा विकल्प सत्य है: उत्तर चुने

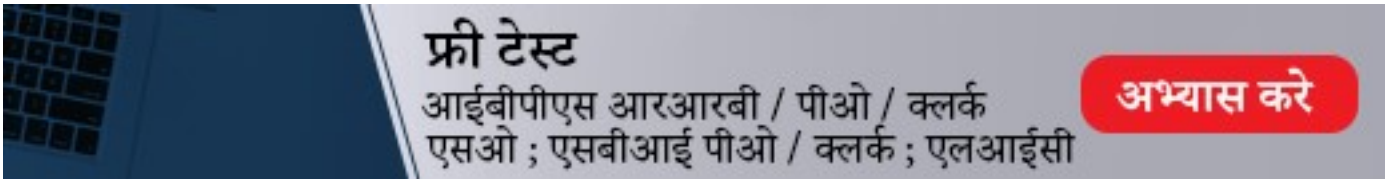

32. **कथन:**
A * C, C # B, D $ A, E * A
निष्कर्ष :
I. E @ B
II. E#B
A. केवल निष्कर्ष I सत्य है
B. केवल निष्कर्ष II सत्य है
C. निष्कर्ष I या II कोई एक सत्य है।
D. निष्कर्ष I या II कोई सत्य नहीं है।
E. निष्कर्ष I और II दोनों सत्य हैं।

33. **कथन:**
H $ G, E % F, F # H, I $ A
निष्कर्ष:
I. I @ E
II. H $ I
A. केवल निष्कर्ष I सत्य है
B. केवल निष्कर्ष II सत्य है
C. निष्कर्ष I या II कोई एक सत्य है।
D. निष्कर्ष I या II कोई सत्य नहीं है।
E. निष्कर्ष I और II दोनों सत्य हैं।

निर्देश (34-38): नीचे दी गई जानकारी का ध्यानपूर्वक अध्ययन करें तथा उसके आधार पर प्रश्नों के उत्तर दें। आठ व्यक्ति अर्थात् A, B, C, D, E, F, G तथा H एक आठ मंजिला ईमारत में रहते हैं। सबसे निचली मंजिल संख्या 1 और सबसे ऊपरी मंजिल संख्या 8 है। वे विभिन्न रंगों अर्थात् लाल, गुलाबी, सिल्वर, नीला, काला,भूरा, सफेद तथा पीला को पसंद करते हैं लेकिन आवश्यक नहीं है कि इसी क्रम में हों। C को पीला रंग पसंद है तथा एक विषम संख्या वाली मंजिल पर रहता है। C तथा B के बीच तीन व्यक्ति रहते हैं। B, C के ऊपर रहता है। B और A के बीच मंजिलों की संख्या C और D के बीच मंजिलों की संख्या के बराबर है। A, D से ऊपर लेकिन B से नीचे रहता है। B और E, जिसे भूरा रंग पसंद है, के बीच दो मंजिलें हैं। E सबसे ऊपरी मंजिल पर नहीं रहता है। G को सफेद रंग पसंद है तथा E से नीचे रहता है। G और जिसे गुलाबी रंग पसंद है के बीच दो मंजिलें हैं। F और H, जिसे लाल रंग पसंद है, के बीच एक मंजिल है। F तथा A के बीच कम से कम एक व्यक्ति रहता है। जिसे नीला रंग पसंद है, वह जिसे काला रंग पसंद है से तुरंत ऊपर रहता है। C को सिल्वर रंग पसंद नहीं है।

34. निम्न में से कौन समूह से संबंधित नहीं है?
A. F
B. H
C. E
D. G
E. D

35. निम्न में से कौन सा संयोजन सही है?
A. B-नीला
B. F-काला
C. C-पीला
D. D-पीला
E. A-काला

36. D और A के बीच कितने व्यक्ति रहते हैं?
A. 1
B. 2
C. 3
D. 4
E. 4 से अधिक

37. निम्न में से किसे सिल्वर रंग पसंद है?
A. D
B. B
C. F
D. A
E. G

38. निम्न में से कौन सा कथन सही है?
A. F सबसे निचली मंजिल पर रहता है
B. H, A से तुरंत नीचे रहता है
C. जो व्यक्ति पहली मंजिल पर रहता है उसे पीला रंग पसंद है
D. A तथा C के बीच केवल एक व्यक्ति रहता है
E. B, D से नीचे रहता है

39. **निर्देश:** नीचे दी गई जानकारी का ध्यानपूर्वक अध्ययन करें तथा इसके आधार पर प्रश्नों के उत्तर दें।
छः छात्र पारूल, क्वीन, रोहित, सुधा, टिशा, और विनय कक्षा की शीर्ष छः रैंक प्राप्तकर्ता हैं। किन्हीं भी दो व्यक्तियों ने समान रैंक प्राप्त नहीं की है। जिस छात्र ने शीर्ष अंक प्राप्त किये उसे रैंक 1 दी गई है और जिसछात्र ने न्यूनतम अंक प्राप्त किये उसे रैंक 6 दी गई है। टिशा ने विनय और पारूल दोनों से कम अंक प्राप्त किये हैं। रोहीत ने क्वीन से अधिक लेकिन सुधा से कम अंक प्राप्त किये हैं। टिशा ने दूसरी सबसे न्यूनतम रैंकप्राप्त की है और पारूल ने दूसरी सबसे शीर्ष रैंक प्राप्त की है, विनय ने रोहित से कम अंक प्राप्त किये हैं।
कक्षा में शीर्ष अंक किसने प्राप्त किये हैं?
A. टिशा
B. रोहित
C. सुधा
D. विनय
E. पारूल

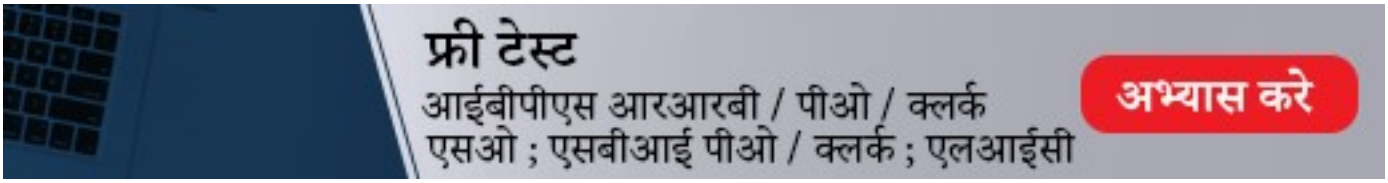

40. **निर्देश:** नीचे दी गई जानकारी का ध्यानपूर्वक अध्ययन करें तथा इसके आधार पर प्रश्नों के उत्तर दें।

छः छात्र पारूल, क्वीन, रोहित, सुधा, टिशा, और विनय कक्षा की शीर्ष छः रैंक प्राप्तकर्ता हैं। किन्हीं भी दो व्यक्तियों ने समान रैंक प्राप्त नहीं की है। जिस छात्र ने शीर्ष अंक प्राप्त किये उसे रैंक 1 दी गई है और जिसछात्र ने न्यूनतम अंक प्राप्त किये उसे रैंक 6 दी गई है। टिशा ने विनय और पारूल दोनों से कम अंक प्राप्त किये हैं। रोहीत ने क्वीन से अधिक लेकिन सुधा से कम अंक प्राप्त किये हैं। टिशा ने दूसरी सबसे न्यूनतम रैंक प्राप्त की है और पारूल ने दूसरी सबसे शीर्ष रैंक प्राप्त की है, विनय ने रोहित से कम अंक प्राप्त किये हैं।

कक्षा में विनय की रैंक क्या है?

A. पहली B. दूसरी
C. तीसरी D. चौथी
E. पाँचवी

41. **निर्देश: निम्न प्रश्न में दो समीकरण दी गई हैं। दोनों समीकरणों को हल कीजिये तथा उत्तर दीजिये।**

I. $8p+7q+7pq=25$
II. $2p+2q=6-2pq$

A. $p>q$ B. $p<q$
C. $p\geq q$ D. $p\leq q$
E. $p=q$ **या सम्बन्ध स्थापित नहीं किया जा सकता है**

42. **निर्देश: निम्न प्रश्न में दो समीकरण दी गई हैं। दोनों समीकरणों को हल कीजिये तथा उत्तर दीजिये।**

I. $5x^2 - 12x + 7=0$
II. $6y^2 + 16y + 8=0$

A. $x > y$ B. $x \geq y$
C. $y > x$ D. $y \geq x$
E. $x = y$ या संबंध स्थापित नहीं किया जा सकता

43. **निर्देश: निम्न प्रश्न में दो समीकरण दी गई हैं। दोनों समीकरणों को हल कीजिये तथा उत्तर दीजिये।**

I. $16x = 12^2 + \sqrt[4]{4096} - 4x^2$
II. $22.03y = 6.48y^2$

A. $x > y$ B. $x \geq y$
C. $x < y$ D. $x \leq y$
E. $x=y$ या x औरy के बीच संबंध स्थापित नहीं किया जा सकता

44. **निर्देश: निम्न प्रश्न में दो समीकरण दी गई हैं। दोनों समीकरणों को हल कीजिये तथा उत्तर दीजिये।**

I. $x + \frac{3}{2x} = \frac{5}{2}$
II. $\sqrt{y} - \frac{3}{\sqrt{y}} = 0$

A. यदि $x < y$ B. यदि $x > y$
C. यदि $x \leq y$ D. यदि $x \geq y$
E. x और y के बीच में संबंध स्थापित नहीं किया जा सकता है

45. **निर्देश: निम्न प्रश्न में दो समीकरण दी गई हैं। दोनों समीकरणों को हल कीजिये तथा उत्तर दीजिये।**

I. $4x^2 + 17x + 15 = 0$
II. $3y^2 + 19y + 28 = 0$

A. यदि $x > y$ B. यदि $x \geq y$
C. यदि $x < y$ D. यदि $x \leq y$
E. यदि x – y अथवा संबंध स्थापित नहीं कर सकते हैं

निर्देश (46-50): निम्नलिखित जानकारी का अध्ययन करें और प्रश्नों के उत्तर दें।

एक विद्यालय में पुरूषों से महिला छात्राओं का अनुपात 4:3 है। सभी छात्र विभिन्न कक्षाओं (कक्षा -1, 2, 3, 4 और 5) में पढ़ते हैं। सभी पुरुष छात्रों का $12\frac{1}{2}\%$ कक्षा 1 में है। कक्षा 2 में पुरुष छात्रों की संख्या कक्षा 4 में पुरुष छात्रों की कुल संख्या से 78 अधिक है। कक्षा 2 और कक्षा 4 में पुरुष छात्रों की कुल संख्या 330 है। कक्षा 5 में पुरुष छात्रों की संख्या 18 है, जो पुरुष छात्रों की कुल संख्या का 3% है। महिला छात्राओं का $11\frac{1}{9}\%$ कक्षा 2 में पढ़ता है। कक्षा 5 में महिला छात्राओं की संख्या उसी कक्षा में पुरुष छात्रों की तुलना में 9 अधिक है। कक्षा 1 में महिला छात्राओं की संख्या कक्षा 4 में महिला छात्राओं की संख्या से 36 कम है। कक्षा 3 में महिला छात्राओं की संख्या कक्षा 2 में महिला छात्राओं की संख्या की तुलना में 150% अधिक है।

46. कक्षा 4 में पढ़ रहे छात्रों की कुल संख्या क्या है?

A. 246 B. 268
C. 289 D. 284
E. 276

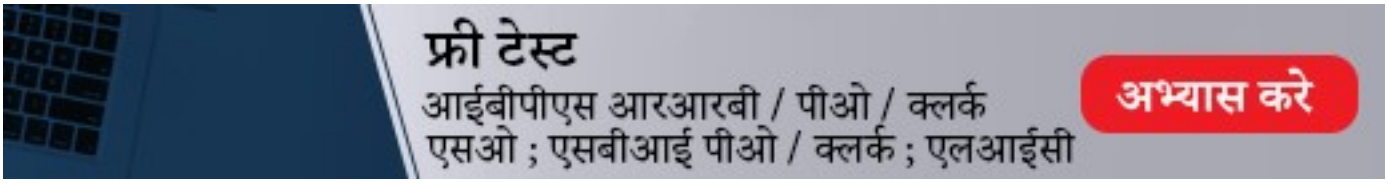

47. कक्षा 1 में पुरुष छात्रों की संख्या से कक्षा 2 मे महिला छात्रों की संख्या का अनुपात क्या है?
A. 2 : 3 B. 2 : 1
C. 1 : 2 D. 3 : 2
E. 4 : 3

48. कक्षा 3 में महिला छात्राओं की संख्या उसी कक्षा में पुरुष छात्रों की संख्या की कितने प्रतिशत है?
A. 66.80% B. 74.32%
C. 64.78% D. 68.87%
E. 70.62%

49. कक्षा 2 और कक्षा 3 के छात्रों की कुल संख्या के बीच क्या अंतर है?
A. 52 B. 66
C. 48 D. 36
E. इनमें से कोई नहीं

50. कक्षा 5 में पुरुष छात्रों की संख्या स्कूल में छात्रों की कुल संख्या की कितने प्रतिशत है?
A. 1.71 B. 2.04
C. 1.39 D. 1.62
E. 1.97

निर्देश (51-55): निम्नलिखित जानकारी का अध्ययन करें तथा निम्नलिखित प्रश्नों के उत्तर दें।

ईशा ने तीन परीक्षाएं अर्थात् पेपर 1, पेपर 2 तथा पेपर 3 दीं। संभावना है कि वह पेपर 1 को 0.6 से पास करेगी। यदि वह किसी पेपर में होती है, तो संभावना है कि वह अगले पेपर को 0.7 से पास करेगी। अन्यथा संभावना 0.9 है।

51. क्या संभावना है कि ईशा तीनों पेपर में पास होगी?
A. 0.6 B. 0.42
C. 0.294 D. 0.54
E. इनमें से कोई नहीं

52. उसके एक पेपर में पास होने की संभावना ज्ञात करें?
A. 0.108 B. 0.26
C. 0.162 D. 0.19
E. इनमें से कोई नहीं

53. X वर्ष पहले आबिद की आयु, अब से X वर्ष बाद उसकी आयु की आधी होगी। अब से Y वर्ष बाद समान व्यक्ति की आयु, Y वर्ष पहले उसकी आयु की 6 गुना होगी। X : Y का अनुपात ज्ञात कीजिए ?
A. 3 : 2 B. 2 : 3
C. 1 : 4 D. 7 : 15
E. इनमें से कोई नहीं

54. **निर्देश:** एक प्रश्न के बाद तीन कथनों में कुछ जानकारी दी गई है। आपको तय करना है कि किस कथन में दी गई जानकारी प्रश्न का उत्तर देने के लिए आवश्यक और पर्याप्त है, तदनुसार उत्तर दें।
चक्रवृद्धि ब्याज पर एक राशि के लिए ब्याज की दर क्या है?
I. निवेश की गई राशि 10,000 रुपये है
II. दो साल में, राशि 2340 रुपये हो जाती है
III. एक वर्ष में, राशि 5460 रुपये हो जाती है
A. केवल I और II
B. केवल II और III
C. केवल I और III
D. I, II और III में से कोई दो
E. सभी I, II और III

55. **निर्देश:** एक प्रश्न के बाद तीन कथनों में कुछ जानकारी दी गई है। आपको तय करना है कि किस कथन में दी गई जानकारी प्रश्न का उत्तर देने के लिए आवश्यक और पर्याप्त है, तदनुसार उत्तर दें।
बकरियों और मुर्गियों के समूह में बकरियों की संख्या क्या है?
I. मुर्गियों की कुल संख्या 25 है
II. पैरों की संख्या सिर की संख्या के दोगुनी से 40अधिक है
III. यदि समूह में 5 खरगोशों को शामिल किया जाए, तो कुल संख्या 50 हो जाती है
A. केवल I और II
B. केवल II और III
C. केवल I और III
D. I, II और III में से कोई दो
E. I और III या II

56. **निर्देश:** एक प्रश्न के बाद तीन कथनों में कुछ जानकारी दी गई है। आपको तय करना है कि किस कथन में दी गई जानकारी प्रश्न का उत्तर देने के लिए आवश्यक और पर्याप्त है, तदनुसार उत्तर दें।
A, B और C की तीन निरंतर छूट क्या हैं?
I. दो निरंतर छूट की परिणामी छूट 32% है
II. तीन निरंतर छूट की परिणामी छूट 51.4% है
III. तीसरी निरंतर छूट 35% है
A. केवल I और II B. केवल II और III
C. केवल I और III D. I, II और III में से कोई दो
E. सभी I, II और III

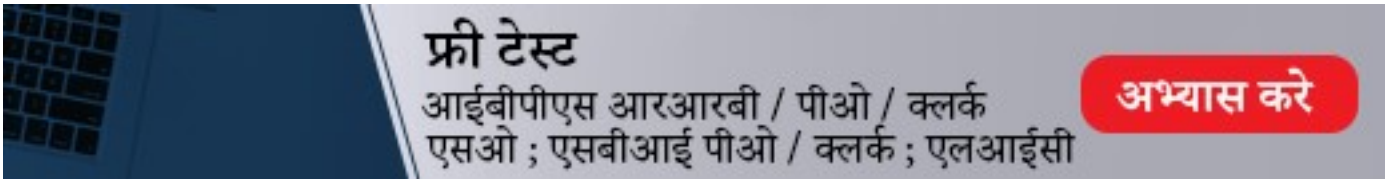

57. **निर्देश:** एक प्रश्न के बाद तीन कथनों में कुछ जानकारी दी गई है। आपको तय करना है कि किस कथन में दी गई जानकारी प्रश्न का उत्तर देने के लिए आवश्यक और पर्याप्त है, तद्नुसार उत्तर दें।
ट्रेन A और B की गति क्या है?
I. क्रमशः 120 मीटर और 100 मीटर लंबाई की ट्रेन A और B समानांतर पटरियों पर चलती है।
II. एक ही दिशा में चलते समय तीव्र ट्रेन 27 सेकंड में धीमी ट्रेन को पार करती है।
III. विपरीत दिशाओं में चलते समय, वे एक-दूसरे को 12 सेकंड में पार करती हैं।
A. केवल I और II
B. केवल II और III
C. केवल I और III
D. I, II और III में से कोई दो
E. सभी I, II और III

58. **निर्देश:** एक प्रश्न के बाद तीन कथनों में कुछ जानकारी दी गई है। आपको तय करना है कि किस कथन में दी गई जानकारी प्रश्न का उत्तर देने के लिए आवश्यक और पर्याप्त है, तद्नुसार उत्तर दें।
एक नाव को A से B तक अपस्ट्रीम जाने और वापस नहर पर B से A तक डाउनस्ट्रीम आने में 4 घंटे लगते हैं। स्थिर पानी में नाव की गति क्या है?
I. A और B के बीच की दूरी 6 कि.मी. है।
II. अपस्ट्रीम की तुलना में नाव को डाउनस्ट्रीम जाने के लिए 2 घंटे कम लगते हैं।
III. जल धारा की गति 2 कि.मी. प्रति घंटा है।
A. केवल I और II
B. केवल II और III
C. केवल I और III
D. I, II और III में से कोई दो
E. सभी I, II और III

59. अबमा देश में एक उत्पाद की कीमत 81 डॉलर और याल्का देश में 625 डॉलर है। अबमा देश में उत्पाद की लागत प्रति माह 25%बढ़ जाती है, जबकि यल्का देश में, यह प्रति माह 25% घट जाती है। महीनों की संख्या निर्धारित करें जिसके बाद अबमा देश में उत्पाद की लागत याल्का देश में उत्पाद की लागत के बराबर हो जाती है।
A. 3
B. 4
C. 5
D. 6
E. 2

60. एक स्कूल को दो शहरोंPऔर Qके बीच बनाया जाना है जो एक-दूसरे से 80 कि.मी. की दूरी पर हैं। शहर Q के 100 छात्रों की तुलना में शहर Pसे 200 छात्र स्कूल में भाग लेंगे। यात्रा की लागत 1.5 रुपये प्रति किलोमीटर है। यदि परिवहन की लागत न्यूनतम होनी चाहिए, तो स्कूल का स्थान ज्ञात करें।
A. शहर P से 30 कि.मी.
B. शहर Pसे 45 कि.मी.
C. शहर Qसे 30 कि.मी.
D. शहर P में
E. शहर Q में

61. एक बोतल शहद से भारी हुई थी। रवि बोतल से 40%शहद निकालता है और इसे पानी से प्रतिस्थापित कर देता है। उसने इस प्रक्रिया को 3बार दोहराया और इस प्रकार बोतल में केवल 945 मिलीलीटर शहद बचा,बोतल का बाकी हिस्सा पानी से भरा था। बोतल में शहद की प्रारंभिक मात्रा ज्ञात करें।
A. 7.225
B. 11.123
C. 3.450
D. 2.125
E. 4.375

62. A, B और C एक कार्य को क्रमशः 40, 15 और 30 दिनों में कर सकते हैं। A कार्य को कितने दिन में कर सकता है यदि हर teesre दिन B और C द्वारा उसकी सहायता की जाती है?
A. 17 3/7 दिन
B. 17 1/7 दिन
C. 17 7/4 दिन
D. 20 दिन
E. इनमें से कोई नहीं

63. रामू, सोमू और डोमू एक-साथ एक कार्य को 4 दिनों में पूरा कर सकते हैं। कार्य को पूरा करने के लिए रामू, सोमू और डोमू को क्रमश: 6300 रुपये, 7350 रुपये और 8400 रुपये की मजदूरी का भुगतान कियाजाता है। दिनों की संख्या ज्ञात करें जिसमें डोमू अकेले कार्य को पूरा कर सकता है?
A. 9.5
B. 10
C. 10.5
D. 11
E. 11.5

64. मनोज को 9000/- रूपये के कुल लाभ में से उसके हिस्से के रूप में 6000/- रूपये प्राप्त हुए जो उसने और रमेश ने एक वर्ष के अंत में अर्जित किए। यदि मनोज ने 6 महीने के लिए 20,000/- रुपये का निवेश किया, जबकि रमेश ने पूरे वर्ष के लिए अपनी राशि का निवेश किया, तो रमेश द्वारा निवेश की गई राशि क्या थी।
A. 10,000 रूपये
B. 5000 रूपये
C. 1000 रूपये
D. 40,000 रूपये
E. इनमें से कोई नहीं

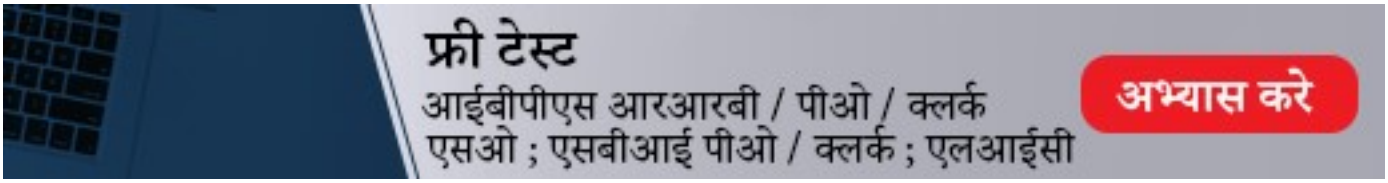

65. एक व्यापार में दो भागीदार अनीता और सुनीता क्रमशः 125000 और 85000 रुपये का निवेश करते हैं और इस पर सहमत होते हैं कि लाभ का 60% समान रूप से दोनों में विभाजित होना चाहिए और शेष लाभ पूंजी पर ब्याज के रूप में बांटा जायेगा। यदि एक पार्टनर को दूसरे की तुलना में 300 रुपये अधिक मिलते हैं, तो व्यापार में हुआ कुल लाभ क्या है?
A. 3850.70 B. 3243.23
C. 2155.63 D. 3937.50
E. इनमें से कोई नहीं

66. सपना ने चक्रवृद्धि ब्याज की 10 प्रतिशत वार्षिक की दर से 900 रूपये का ऋण लिए। यदि उसने पहले वर्ष के अंत में 500रूपये अदा किए तो अपने ऋण को पूर्ण रूप से अदा करने के लिए दूसरे वर्ष में उसे कितना भुगतान करना होगा?
A. 400 रू. B. 589 रू.
C. 539 रू. D. 550 रू.
E. इनमें से कोई नहीं

67. हॉल की चार दीवारों को पेंट करने की लागत 8960 रुपये है। पेंटिंग की लागत 8 रुपये प्रति वर्ग फुट है। यदि आयत की लंबाई और चौड़ाई 20 फीट और 12 फीट है, तो हॉल की ऊंचाई क्या है?
A. 10 फीट B. 12.5 फीट
C. 17.5 फीट D. 15 फीट
E. 16 फीट

68. एक व्यक्ति 6 घंटे में धारा के प्रतिकूल 18 कि.मी. और अनुप्रवाह में 42 कि.मी. नाव चला सकता है। साथ ही, वह 7 घंटे में धारा के प्रतिकूल 30 कि.मी. और अनुप्रवाह में 28 कि.मी. नाव चला सकता है। स्थिर पानी में व्यक्ति की गति ज्ञात करें।
A. 8 कि.मी./घंटा B. 10 कि.मी./घंटा
C. 4 कि.मी./घंटा D. 12 कि.मी./घंटा
E. इनमें से कोई नहीं

निर्देश (69-73): ये निम्नलिखित तालिका लाभ और हानि से संबंधित है तथा इसमें कुछ मान लुप्त हैं। सभी छूट अंकित मूल्य पर है तथा लाभ लागत मूल्य पर है। प्रश्नों को ध्यानपूर्वक पढ़ें तथा प्रश्नों के उत्तर दें:

वस्तु	लागत मूल्य	लाभ (%)	अंकित मूल्य	छूट (%)	बिक्री मूल्य
A	1250	--	1400	--	--
B	--	8%	--	--	--
C	--	20%	2760	--	--
D	1000	--	--	--	1100
E	--	20%	4000	--	--

69. यदि वस्तु का लाभ प्रतिशतऔर छूट प्रतिशत समान है। तो वस्तु D का अंकित मूल्य ज्ञात करें।
A. 900 रूपये B. 1222.22 रूपये
C. 909 रूपये D. 999 रूपये
E. इनमें से कोई नहीं

70. यदि वस्तु D और वस्तु E के लागत मूल्य का अनुपात 4:5 है, तो वस्तु E का छूट% ज्ञात करें।
A. 32.3% B. 62.5%
C. 30.25% D. 32.25%
E. 33.33%

71. यदि वस्तु A का अंकित मूल्य वस्तु B के लागत मूल्य से 250 रूपये अधिक है तथा अंकित मूल्य और वस्तु B के बिक्री मूल्य के बीच अंतर 1258 रूपय है। तो वस्तु B का छूट % ज्ञात करें।
A. 51.52% B. 20.52%
C. 50.52% D. 51%
E. इनमें से कोई नहीं

72. वस्तु D का लागत मूल्य वस्तु A के अंकित मूल्य से कितना प्रतिशत कम है?
A. 29% B. 27.1%
C. 28.57% D. 28.6%
E. उपरोक्त में से कोई नहीं

73. वस्तु C का बिक्री मूल्य ज्ञात करें, यदि लाभ % में 12.5% की वृद्धि हुई है।मान लें कि आइटम C के लिए चिह्नित मूल्य लागत मूल्य का 6/5 है
A. 2178.5 रूपये B. 2718.5 रूपये
C. 2158.5 रूपये D. 2871.5 रूपये
E. 2817.5 रूपये

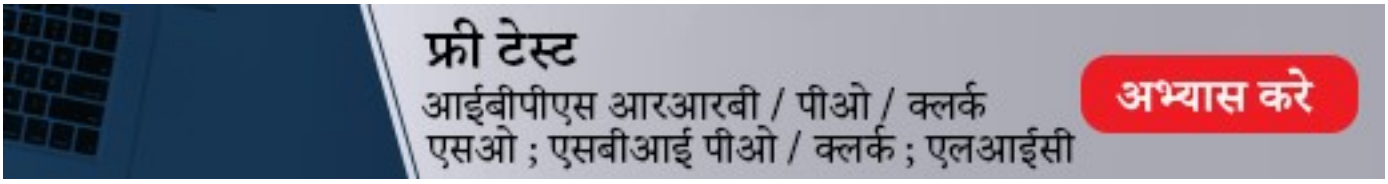

74. पीटर, साना और गेविन, एडम्स परिवार के घर जा रहे हैं जो उनसे 200 कि.मी. दूर रहते हैं। उनमें से प्रत्येक की चलने की गति 10 कि.मी./घंटा है। आरंभ में, पीटर और गेविन 50 कि.मी. प्रति घंटे की दर से एक कार में यात्रा करते हैं तथा साना पैदल दूरी तय करती है। थोड़ी देर बाद, गैविन कार से उतर जाती है क्योंकि वह मिचली महसूस करती है और घर की बाकी दूरी पैदल तय करती है। पीटर, साना को लाने के लिए कार में वापस चला गया और वे सभी एक ही समय में घर पहुंचे। यात्रा करने का संपूर्ण समय क्या है?

A. 10 घंटे
B. 7 घंटे
C. 8 ½ घंटे
D. 8 घंटे
E. 5 घंटे

75. A और B एक ही बिंदु से एक ही समय में 15 मी./सें. एवं 10 मी./से. की गति से विपरीत दिशाओं में 600 मीटर की लंबाई के गोलाकार ट्रैक के चारों ओर दौड़ते हैं। ट्रैक पर कहीं भी पहली बार वे कितने समयबाद एक-दूसरे से मिलेंगे?

A. 60 सेकेंड
B. 24 सेकेंड
C. 36 सेकेंड
D. 50 सेकेंड
E. 30 सेकेंड

निर्देश (76-80): निम्नलिखित बार आरेख वर्ष **2011** से **2015** के दौरान बेचे गए दुपहिया वाहनों की संख्या और निर्यात किए गए दुपहिया वाहनों की संख्या के विवरण को दर्शाता है।

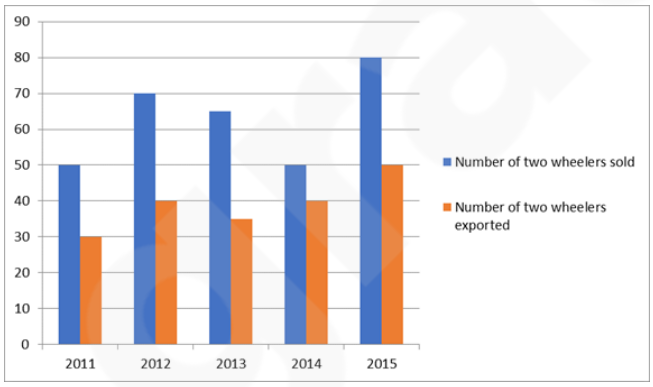

76. वर्ष 2013 से 2014 तक निर्यात किए गए दुपहिया वाहनों की संख्या में वृद्धि प्रतिशत क्या है?

A. 11 $^{1}/_{9}$%
B. 9 $^{1}/_{11}$%
C. 16 $^{2}/_{3}$%
D. 14 $^{2}/_{7}$%
E. इनमें से कोई नहीं

77. प्रत्येक वर्ष में यदि निर्यात किए गए किसी भी दुपहिया वाहन का बिक्री मूल्य स्थानीय बाजार में बेचे गए बिक्री मूल्य से 30% अधिक है तो किस वर्ष में निर्यात की तुलना में स्थानीय बाजार से अधिक राजस्व प्राप्त हुआ?

A. 2012
B. 2014
C. 2011
D. 2015
E. 2013

78. दी गई अवधि में किस वर्ष में दुपहिया वाहनों की कुल संख्या (बिक्री+निर्यात) अन्य वर्ष में बेचे गए दुपहिया वाहनों की कुल संख्या (बिक्री+निर्यात) की तुलना में 25% अधिक है?

A. 2012
B. 2011
C. 2015
D. 2014
E. 2013

79. किस वर्ष में स्थानीय बाजार में बेचे गए दुपहिया वाहनों की संख्या का प्रतिशत निर्यात किए जाने वाले दुपहिया वाहनों की कुल संख्या से अधिक है?

A. 2012
B. 2011
C. 2014
D. 2015
E. 2013

80. वर्ष 2010 से 2011 तकस्थानीय बाजार में बेचे जाने वाले दुपहिया वाहनों की संख्या और निर्यात किए गए दुपहिया वाहनों की संख्या में क्रमश: 25% और 20% की वृद्धि हुई। वर्ष 2010 में निर्यात किए गए दुपहिया वाहनों की संख्या एवं स्थानीय बाजार में बेचे गए दुपहिया वाहनों की संख्या का प्रतिशत क्या है?

A. 56.5%
B. 62.5%
C. 75%
D. 45%
E. इनमें से कोई नहीं

81 'PCA' एक ढांचा है जो भारतीय रिजर्व बैंक द्वारा गैर निष्पादित संपत्तियों के उच्च प्रतिशत वाले बैंकों पर लगाया जाता है। 'PCA' में 'P' का क्या मतलब है?

A. Public
B. Private
C. Prompt
D. Partnership
E. Parity

82. कैमूर वन्यजीव अभयारण्य निम्नलिखित में से किस राज्य में स्थित है?

A. उत्तर प्रदेश
B. बिहार
C. केरल
D. पंजाब
E. इनमें से कोई नहीं

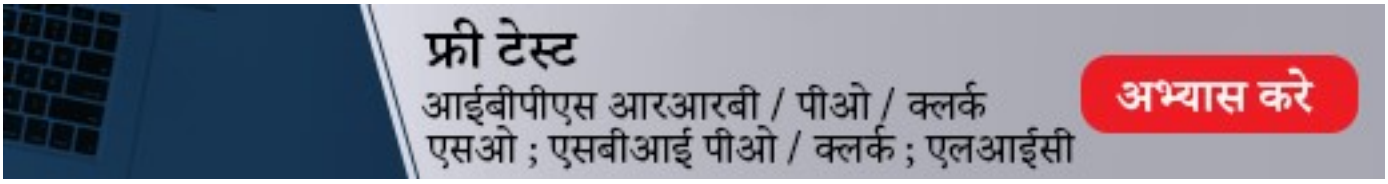

83. महेश कुमार जैन को तीन साल की अवधि हेतु चौथे डिप्टी गवर्नर के रूप में नियुक्त किया गया है। नियुक्ति से पहले वह किस बैंक के मुख्य कार्यकारी अधिकारी (सी.ई.ओ) थे?

A. कैनरा बैंक B. बैंक ऑफ इंडिया
C. यूनियन बैंक ऑफ इंडिया D. आई.डी.बी.आई
E. यूको बैंक

84. निम्न में से कौन 'क्राइसिस विदइन नॉलेज एंड एजुकेशन इन इंडिया' पुस्तक के लेखक हैं?

A. आनंद नीलकांतन B. चेतन भगत
C. गणेश देवी D. रस्किन बॉन्ड
E. अरुंधती रॉय

85. भारत ने सभी राज्यों और केंद्र शासित प्रदेशों के कितने जिलों के लिए राष्ट्रीय पोषण मिशन (पोषण अभियान) हेतु विश्व बैंक के साथ 200 मिलियन डॉलर के ऋण समझौते पर हस्ताक्षर किए हैं?

A. 634 जिले B. 315 जिले
C. 500 जिले D. 250 जिले
E. 215 जिले

86. स्वदेश दर्शन योजना के संबंध में निम्नलिखित कथनों में से कौन सही है?

1) यह संस्कृति मंत्रालय की योजना है।

2) इसका उद्देश्य विषय (थीम) आधारित पर्यटन सर्किट विकसित करना है।

3) कृष्णा सर्किट इस योजना के तहत विकसित किए जाने वाले सर्किट में से एक है।

निम्न कूटों का प्रयोग करके सही उत्तर का चयन करें:

A. केवल 1 B. केवल 1 और 2
C. केवल 2 और 3 D. 1, 2 और 3
E. केवल 1 और 3

87. जून 2018 में, भारतीय रिजर्व बैंक ने बैंकों के ग्राहकों के बीच जागरूकता पैदा करने पर ध्यान केंद्रित करने के लिए वित्तीय साक्षरता सप्ताह आयोजित किया। वित्तीय साक्षरता सप्ताह का विषय क्या है?

A. 'अपने ग्राहक को जानें' B. 'ग्राहक संरक्षण'
C. 'अपने बैंक को जानें' D. 'सुरक्षित बैंकिंग'
E. दिए गए विकल्पों के अलावा

88. निम्न में से किसने कनाडाई ग्रैंड प्रिक्स 2018 जीती है?

A. डैनियल रिकियार्डो B. मैक्स वर्स्तापन
C. वाल्टेरी बोटास D. लुईस हैमिल्टन
E. सेबेस्टियन वेट्टल

89. निम्न में से किस बैंक की टैगलाइन 'हम हैं ना' है?

A. कोटक बैंक B. बैंक ऑफ बड़ौदा
C. आई.सी.आई.सी.आई बैंक D. केनरा बैंक
E. इंडियन ओवरसीज़ बैंक

90. पराग्वे की पहली अंतरिम महिला राष्ट्रपति कौन होंगी?

A. जेनेट जगन B. मैरी रॉबिन्सन
C. एलिसिया पुचेता D. एलिज़ाबेथ कोप्प
E. कोराज़ोन एक्विनो

91. आई.एम.पी.एस के तहत धनराशि ए.बी.आर सेवा के माध्यम से भी प्रेषित की जा सकती है। ए.बी.आर.एस क्या है?

A. Aadhaar Based Remittance Service
B. Aadhaar Based Resource Scheme
C. Aadhaar Based Refinance Service
D. Aadhaar based Redevelopment Scheme
E. इनमें से कोई नहीं

92. अंतर्राष्ट्रीय समुद्री संगठन (आई.एम.ओ.) का मुख्यालय किस शहर में स्थित है?

A. वियना B. लंदन
C. टोक्यो D. ओस्लो
E. इनमें से कोई नहीं

93. कला के क्षेत्र में उत्कृष्ट योगदान के लिए प्रतिष्ठित श्री जयदेव राष्ट्रीय युवा प्रतिभा पुरस्कार 2018 से निम्न में से किस कथक नर्तक को सम्मानित किया गया है?

A. पंडित दुर्गलाल B. अनन्दिता अनाम
C. निरुपमा राजेंद्र D. संजुता सिन्हा
E. इनमें से कोई नहीं

94. निम्न में से किस भारतीय महिला क्रिकेटर ने टी20I में 2000रन बनाने का रिकॉर्ड बनाया है?

A. हरमनप्रीत कौर B. झुलन गोस्वामी
C. एकता बिष्ट D. मिताली राज
E. इनमें से कोई नहीं

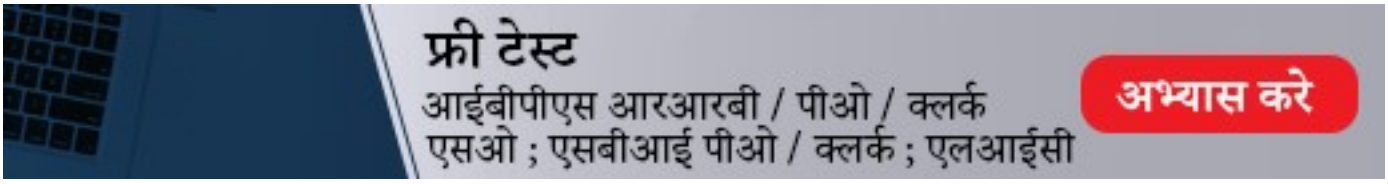

95. इसरो ने अप्रैल 2018 को 'IRNS-1I ' उपग्रह को सफलतापूर्वक लॉन्च किया है। अगस्त 2017 में IRNSS 1H मिशन की विफलता के बाद 'IRNS-1I ' उपग्रह ने किस उपग्रह को प्रतिस्थापित किया है ?
A. IRNSS 1E
B. IRNSS 1A
C. IRNSS 1C
D. IRNSS 1B
E. IRNSS 1D

96. भगोड़ा आर्थिक आपराधिक विधेयक, 2018 जो अधिकारियों को देश से भागने वाले ऋण चूक-कर्ताओं जैसे आर्थिक अपराधियों की संपत्तियों और परिसंपत्तियों को संलग्न और जब्त करने के लिए सशक्त बनाएगा। एक भगोड़ा अपराधी शब्द केवल उन लोगों पर लागू होता है जो भारत के घरेलू परिसीमन क्षेत्र में _____ से अधिक बकायेदार हैं।
A. रु 500 करोड़
B. रु 1000 करोड़
C. रु 100 करोड़
D. रु 200 करोड़
E. रु 5000 करोड़

97. किस बैंक ने महिला उद्यमियों के लिए 'विकास शी प्लस', ऋण योजना का शुभारंभ किया था?
A. कावेरी ग्रामीण बैंक
B. महाराष्ट्र ग्रामीण बैंक
C. मेघालय ग्रामीण बैंक
D. कर्नाटक विकास ग्रामीण बैंक
E. जम्मू एवं कश्मीर ग्रामीण बैंक

98. 2018 सिंगापुर राष्ट्रीय तैराकी चैंपियनशिप में पुरुषों के 50 मीटर ब्रेस्टस्ट्रोक समारोह में स्वर्ण पदक किसने जीताहै?
A. एडम पीटी
B. एम.एम. साहू
C. संदीप सेजवाल
D. अरविंद मणि
E. इनमें से कोई नहीं

99. आधार सक्षम भुगतान प्रणाली के संदर्भ में बी.एफ.डी (BFD) का क्या अर्थ है?
A. Bank Finance Deficit
B. Best Finger Detection
C. Best Finance Deal
D. Bank Fraud Detection
E. इनमें से कोई नहीं

100. कंवर झील पक्षी अभ्यारण्य निम्न में से किस राज्य में स्थित है?
A. अरूणाचल प्रदेश
B. बिहार
C. छत्तीसगढ़
D. आंध्र प्रदेश
E. इनमें से कोई नहीं

101. 'संयुक्त राष्ट्र बाल कोष (यूनिसेफ) का मुख्यालय _____ में है?
A. वाशिंगटन डीसी, संयुक्त राज्य अमेरिका
B. वियना, आस्ट्रिया
C. पेरिस, फ्रांस
D. जिनेवा, स्विट्जरलैंड
E. न्यूयॉर्क सिटी, संयुक्त राज्य अमेरिका

102. स्वच्छ आइकॉनिक प्लेसिस (एस.आई.पी) की प्रमुख परियोजना के तीसरे चरण में निम्न में से किस आइकोनिक साइट को जोड़ा गया है?
A. बिजनौर की विदुर कुट्टी
B. इलाहाबाद का नागवासुकी मंदिर
C. चमोली का माना गांव
D. मुर्शिदाबाद का हजर्डवारी पैलेस
E. उपरोक्त सभी

103. हाल ही में लॉन्च किया गया उत्तम ऐप, भारत सरकार के किस मंत्रालय द्वारा लॉन्च किया गया है?
A. ऊर्जा मंत्रालय
B. पेट्रोलियम एवं प्राकृतिक गैस मंत्रालय
C. कोयला मंत्रालय
D. स्वास्थ्य एवं परिवार कल्याण मंत्रालय
E. उपरोक्त में से कोई नहीं

104. निम्न में से कौन केन्द्रीय सूची में अन्य पिछड़ा वर्ग (ओ.बी.सी) के भीतर उप-वर्गीकरण के मुद्दे की जांच करने हेतु आयोग का प्रमुख है?
A. परमोद कोहली
B. डी.पी सिंह
C. तपन मिश्रा
D. देवेंद्र कुमार सीकरी
E. जी. रोहिणी

105. निम्न में से किसने फिक्शन के लिए मैन बुकर इंटरनेशनल पुरस्कार 2018 जीता है?
A. डेविड ग्रासमैन
B. हैन कांग
C. फिलिप रॉथ
D. ओल्गा टोकारजुक
E. इस्माइल कदारे

106. कम्पनी अधिनियम 1956के तहत, निगमित गैर-बैंक संस्थाओं द्वारा स्थापित, स्वामित्व और संचालित एटीएम ____को कहा जाता है.
A. व्हाइट लेबल ATMs
B. ब्राउन लेबल ATMs
C. ऑरेंज लेबल ATMs
D. पिंक लेबल ATMs
E. ग्रीन लेबल ATMs

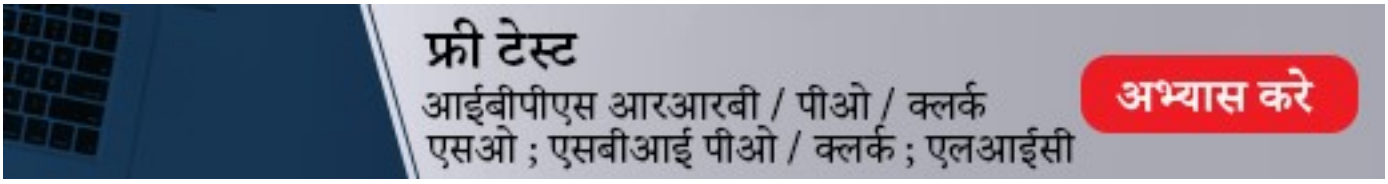

107. खुले बाजार की क्रिया भारतीय अर्थव्यवस्था का प्रसिद्ध पद है, इसका क्या अर्थ होता है?
A. भारत सरकार से ऋण लेना
B. बैंको के द्वारा निधियो का एकत्रीकरण
C. भारतीय रिजर्व बैंक के माध्यम से सरकारी प्रतिभूतियो की खरीद और बिक्री
D. तनावपूर्ण स्थितियो में आम जनता को आरबीआई के द्वारा ऋण प्राप्त करवाना
E. उपर्युक्त में से कोई नहीं

108. नागार्जुन सागर बांध निम्न में से किस नदी पर स्थित है?
A. कावेरी
B. महानदी
C. तुंगभद्रा
D. कृष्णा
E. भीमा

109. निम्न में से किसे एन.पी.सी.आई. के नए प्रबंध निदेशक और मुख्य कार्यकारी अधिकारी के रूप में नियुक्त किया गया है?
A. मयंक सिंघल
B. दिलीप असबे
C. ए.पी. होता
D. माणिक अगरवाल
E. इनमें से कोई नहीं

110. क्लर्क को चेक पर शब्दों और अंकों पर लिखी धनराशि में अंतर पाए जाने पर क्या करना चाहिए?
A. इसे एक बासी (स्टेल) चेक मानना चाहिए
B. शब्दों में लिखी धनराशि के अनुसार चेक पास कर देना चाहिए
C. अंकों में लिखी धनराशि के अनुसार चेक पास कर देना चाहिए
D. चेक अस्वीकार कर देना चाहिए और चेक मूल्य का दो गुना जुर्माना लगाना चाहिए
E. उपरोक्त में से कोई नहीं

111. बगडोगरा हवाईअड्डा निम्न में से किस राज्य में स्थित है?
A. सिलीगुड़ी
B. कोलकाता
C. मालदा
D. अंदल
E. बर्नपुर

112. विश्व वृद्ध दुर्व्यवहार जागरूकता दिवस 2018 किस दिन मनाया जाता है।
A. 3 जून
B. 11 जून
C. 12 जून
D. 15 जून
E. 7 जून

113. निम्नलिखित में से ब्रुनेई की राजधानी का चयन करें-
A. क्विटो
B. सुवा
C. तिब्लिसी
D. बंदर सेरी बेगवान
E. सोफिया

114. जून 2018 में, प्रधान मंत्री की अध्यक्षता में केंद्रीय मंत्रिमंडल ने रु 8500 करोड़ बकाया पैकेज देश में परेशान चीनी उद्योग के लिए दिया। हर साल लगभग 20-25 मिलियन टन चीनी उत्पादन के साथ भारत किस देश के बाद दुनिया का दूसरा सबसे बड़ा चीनी उत्पादक है?
A. थाईलैंड
B. चीन
C. ब्राजील
D. वियतनाम
E. ऑस्ट्रेलिया

115. शिक्षा को बढ़ावा देने और बच्चों को स्कूलों में नामांकन करने के लिए प्रोत्साहित करने के लिए किस राज्य सरकार ने 'स्कूल चले हम अभियान 2018' का उद्घाटन किया है?
A. गुजरात
B. पंजाब
C. हरियाणा
D. मध्य प्रदेश
E. बिहार

116. जून 2018में, अनुभवी पत्रकार शुजात बुखारी का निधन हो गया। वह किस समाचार-पत्र के संपादक थे?
A. झेलम पोस्ट
B. कश्मीर पर्यवेक्षक
C. कश्मीर लाइफ
D. राइजिंग कश्मीर
E. इनमें से कोई नहीं

117. निम्न में से कौन सा संवैधानिक संशोधन बिल जीएसटी से संबंधित है ?
A. संविधान (102 संशोधन) बिल, 2014
B. संविधान (101 संशोधन) बिल, 2014
C. संविधान (121 संशोधन) बिल, 2014
D. संविधान (122 संशोधन) बिल, 2014
E. उपरोक्त में से कोई नहीं

118. निम्न में से किस राज्य सरकार ने रोगों की निगरानी के लिए 'निदान' सॉफ्टवेयर लॉन्च किया है?
A. पंजाब
B. ओडिशा
C. राजस्थान
D. आंध्र प्रदेश
E. उत्तर प्रदेश

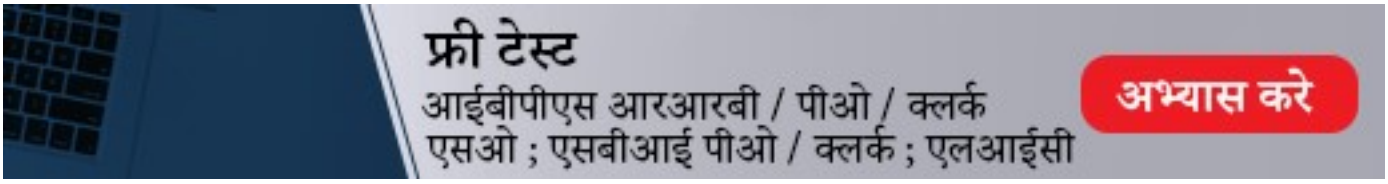

119. पेरियार राष्ट्रीय उद्यान भारत के किस राज्य में स्थित है?

A. केरल B. गुजरात

C. हरियाणा D. मध्य प्रदेश

E. इनमें से कोई नहीं

120. कपड़ा मंत्री स्मृति ईरानी किस राज्य से राज्यसभा के लिए चुने गए है?

A. गुजरात B. आंध्र प्रदेश

C. राजस्थान D. महाराष्ट्र

E. उत्तर प्रदेश

Direction (121-127): Read the given passage carefully and answer the questions that follow. Certain words are printed in bold to help you locate them while answering some of these.

Thousands of years ago, fallout from volcanic activity may have sounded a death **knell** for a centuries-old Egyptian dynasty, according to a new study. In Ptolemaic Egypt (305 B.C. to 30 B.C.), the region's prosperity was linked to the flood cycle of the Nile River, with regular flooding sustaining local agriculture. When floods failed, so did crops, and social unrest shook the region. The new study proposes a link between historic volcanic activity and disruption of the African monsoon rainfall during the summer. A drier monsoon season could have reduced Nile flooding, leading to fewer crops and more food shortages and, ultimately, initiating a societal unravelling that led to the Ptolemaic dynasty's eventual collapse, the study authors wrote.

When volcanoes erupt, they spew sulphur-rich gases in plumes that can extend into the stratosphere. These gases then oxidize and form particles called sulphate aerosols that can dramatically impact weather patterns such as monsoons, the study authors reported. "These aerosols are really effective at reflecting incoming sunlight back to space," study co-author Francis Ludlow, a researcher with the Yale Climate and Energy Institute, told Live Science in an email.

"Hence, less energy reaches the earth's surface, so we have cooling, and where we have cooling, we also have less evaporation and less potential for rainfall," he said. Aerosols produced by a volcanic eruption in Iceland, for instance, could thereby sap the heat driving the African monsoon, thus leading to less rain and reduced Nile flooding, Ludlow explained.

Piecing together the events in ancient Egypt required delving into the geologic record for evidence of global volcanic activity and comparing that activity to fluctuations in annual Nile flooding, recorded over centuries with structures called nilometers. "It was already known that the Nile was dependent on the strength of the African monsoon each summer, and that volcanism could alter the monsoons," Ludlow said. The nilometers confirmed that during years when there were volcanic eruptions, the average Nile response was lower flood heights, the researchers found. Next, they needed to see if this finding corresponded to social **repercussions**.

The scientists compared their data to extensive records from the Ptolemaic dynasty describing episodes of unrest — which were previously unexplained — to see whether these incidents overlapped with volcanism and reduced flooding, Ludlow said. Archives showed that, in the decade prior to the fall of the Ptolemaic dynasty — which ended with Cleopatra's death in 30 B.C. — Egypt's prosperity had weakened notably, with repeated Nile flooding failure, famine, plague, inflation, corruption, land abandonment and migration taking a heavy toll, Ludlow told Live Science in an email.

Source: livescience.com

121. What did the crop growth in ancient Egypt depend upon?

A. On the sharing of water from the Blue Nile between Ethiopia, Sudan and Egypt.

B. The flood cycle of the Nile River as whenever the floods failed, the crops did too.

C. Social tensions as people grew hungry and desperate.

D. The social and economic stresses.

E. The volcanic activity in nearby area.

122. What could have been the reason behind the collapse of Ptolemaic dynasty according to some authors?

A. Nile flooding reduced, hence fewer crops were produced, that led to food shortages, ending the dynasty.

B. Diminished supplies following the next big eruption led to the collapse.

C. The volcanic eruption was the reason.

D. The tropical parts of the world were hit by parasitic infection.

E. None of these

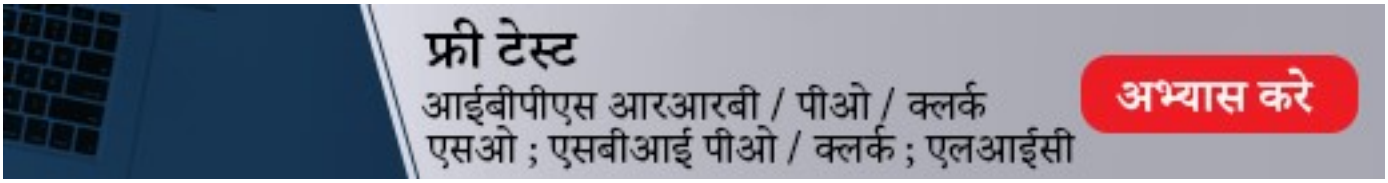

123. What factors are responsible for impacting weather patterns such as monsoons?
A. Rising temperatures and changes to precipitation may result in affecting weather.
B. A rise in carbon dioxide levels is the main cause.
C. Sulphur-rich gases emitted by volcanic eruptions oxidise and form particles called sulphate aerosols that impacts weather patterns.
D. A mosquito-borne parasitic infection called lymphatic filariasis is responsible.
E. An alarming rise in antibiotic-resistant bacteria led to it.

124. What did Ludlow explain about the cause of less rain and reduced Nile flooding?
A. Crushed volcanic rock with no organic material, make it nearly impossible for plant life to survive.
B. They found that the crops grown under elevated carbon dioxide levels had lower levels of protein, zinc and iron.
C. Increased levels of carbon dioxide in the atmosphere, rising temperatures and changes to precipitation.
D. The heat driving the African monsoon could be drained by Aerosols produced by volcanic eruptions.
E. Pests are responsible for 25 to 40 percent of all crop loss.

125. What did the nilometers record about the flood in Ancient Egypt?
A. When there were volcanic eruptions, the average Nile response was lower flood heights.
B. They sent some antibiotic resistance back down the evolutionary pathway.
C. They enforced to stop using antibiotics in agriculture, and also slowed down their antibiotics use in medicine.
D. They showed a devastating impact on agricultural regions that are presently dependent on monsoons.
E. They provided data about volcanic eruptions that aligned with notable social unravelling.

126. Which of the following has a meaning similar to the word "knell"?
A. Dramatization B. Discern
C. Descry D. Entreat
E. Reverberation

127. Which of the following has a meaning similar to the word "repercussion"?
A. Contradiction B. Stratagem
C. Backlash D. Manoeuvre
E. Machination

Direction (128-132): In the following passage, there are blanks each of which has been numbered. These numbers correspond to the question numbers; against each question, five words have been suggested, one of which fills the blanks appropriately.
A video game is a game that involves the **(###Q1###)** with a user interface to generate visual feedback on a video device. Video games may have a reward system—such as a score—that is based on accomplishment of tasks set within the game. Specialized video games such as arcade games, while previously common, have gradually **(###Q2###)** in use due to lack of interest in such video games. Many players identify their platform of choice as a distinct form of video gaming apart from the rest. The main separations between platforms are their design, technical capabilities, and available video games. Beyond the common element of **(###Q3###)** feedback based on participants observations, video games have utilized other systems to provide interaction and information to the player. In common usage, a "PC game" refers to a game that is played on a personal computer connected to a high-resolution video monitor. A "console game" historically has referred to a specialized, single-purpose electronic device that connects to a standard television set or composite video monitor. A "hand-held" game is a self-contained electronic device or miniature computer and monitor combination that is portable and can be held in a user's hands. "Arcade game" generally refers to an even more specialized type of electronic device that is typically designed to play only one game and is **(###Q4###)** in a special cabinet. There are also devices with screens that have the ability to play games but are not dedicated video game machines. A video game, like most other forms of media, may be categorized into **(###Q5###)** based on many factors such as the method of game play, types of goals, and more.

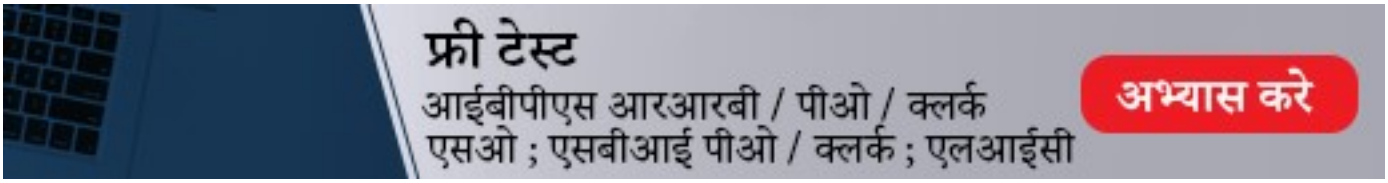

128. Find the appropriate word in each case.
A. Wholeheartedness B. Description
C. Interaction D. Interest
E. Action

129. Find the appropriate word in each case.
A. Declined B. Improved
C. Denigrated D. Usurped
E. Multiplied

130. Find the appropriate word in each case.
A. Imaginary B. Contexual
C. Sensory D. Auditory
E. Visual

131. Find the appropriate word in each case.
A. Encumbered B. Handheld
C. Withheld D. Encased
E. Crushed

132. Find the appropriate word in each case.
A. Features B. Genres
C. Factors D. Levels
E. Folders

133. **Direction:** In the following question, four statements are given. Identify the pair of statements opposite in meaning to each other. If the correct opposite pair is not given in the alternatives, mark 'None of these' as the answer.
1) The preference to qualification over talent has not only lead to a massive brain-drain from the country but also a stagnation in the national growth.
2) The country's growth has been hindered by the massive brain-drain which is an aftermath of the improper criterion of employee selection.
3) The massive turnover and the halt in the national growth are a fallout of the predilection for talent.
4) The national growth is directly proportional to the attrition rate which has been kept up.
A. 1 and 4 B. 1 and 3
C. 2 and 3 D. 1 and 2
E. None of these

134. **Direction:** In the following question, four statements are given. Identify the pair of statements opposite in meaning to each other. If the correct opposite pair is not given in the alternatives, mark 'None of these' as the answer.
1) AI research uses tools and insights from many fields, including computer science, psychology, philosophy, neuroscience, cognitive science, linguistics, operations research, economics, control theory, probability, optimization and logic.
2) Systems integration is seen as promising and perhaps necessary for true AI, especially the integration of symbolic and connectionist models.
3) Artificial Learning is based on empirical data and is associated with non-symbolic AI, scruffy AI and soft computing.
4) Artificial learning, rather than being based on experience and observation, pertains to theoretical data.
A. 1 and 4 B. 2 and 3
C. 3 and 4 D. 1 and 3
E. None of these

135. **Direction:** In the following question, four statements are given. Identify the pair of statements opposite in meaning to each other. If the correct opposite pair is not given in the alternatives, mark 'None of these' as the answer.
1) As the topic of Talent Development (TD) gets more research attention in Western business, the need for understanding the nature and the scope of TD activities in an Eastern business context increases.
2) The findings revealed a lack of clarity in defining 'talent' in all sample organizations and the use of a variety of TD practices.
3) This study concludes with implications for future research on and practice of TD activities.
4) Talent Development is becoming obsolete in the Western market owing to the shrinking of the opportunities that it used to provide in the past.
A. 1 and 2 B. 2 and 4
C. 2 and 3 D. 1 and 4
E. None of these

136. **Direction:** A sentence with two blanks is given, each blank indicating that something has been omitted. Choose the words, a pair that represents the masculine and feminine gender of each other, that best fit the meaning of the sentence as a whole.
Mr Ben, who was the _____ at the school, subsequently died and his mother continued his proceedings as _____ of his vast estate.
A. Priest, Priestess
B. Grandfather, Grandmother
C. Headmaster, Headmistress
D. Administrator, Administratrix
E. Emperor, Empress

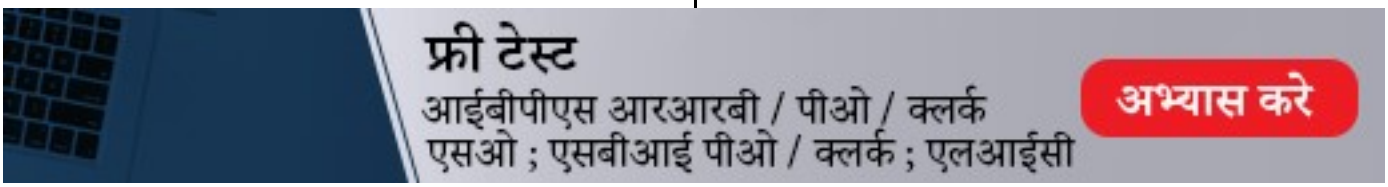

137. **Direction:** A sentence with two blanks is given, each blank indicating that something has been omitted. Choose the words, a pair that represents the masculine and feminine gender of each other, that best fit the meaning of the sentence as a whole.
Sir Raymond was married to a Russian _____ who had a large estate in Orel province, and after the marriage, he became the legal _____ to the throne.
A. Princess, Princess
B. Washerwoman, Washerman
C. Mother-in-law, Father-in-law
D. Lass, Lad
E. Heiress, Heir

138. **Direction:** A sentence with two blanks is given, each blank indicating that something has been omitted. Choose the words, a pair that represents the masculine and feminine gender of each other, that best fit the meaning of the sentence as a whole.
David and Mary, who were a _____ and a _____ respectively and always lived according to monastic rule together with all their followers.
A. Postmaster, Postmistress
B. Son, Daughter
C. Monk, Nun
D. Shepherd, Shepherdess
E. Waiter, Waitress

139. **Direction:** Read the given passage carefully. Choose the most appropriate option from the given alternatives which expresses the summary of the passage.
The Internet Protocol (IP) is the principal communications protocol in the Internet protocol suite for relaying datagrams across network boundaries. Its routing function enables internetworking and essentially establishes the Internet. IP has the task of delivering packets from the source host to the destination host solely based on the IP addresses in the packet headers. For this purpose, IP defines packet structures that encapsulate the data to be delivered. It also defines addressing methods that are used to label the datagram with source and destination information. Historically, IP was the connectionless datagram service in the original Transmission Control Program introduced by Vint Cerf and Bob Kahn in 1974; the other being the connection-oriented Transmission Control Protocol (TCP).
i. Internet protocol is used to transfer data in the form of packets from source to destination on the basis of address in the packet headers and addressing methods.
ii. Transmission Control Protocol defines packet structures that encapsulate the data to be delivered.
iii. Historically, when Vint Cerf and Bob Kahn introduced Transfer Control Protocol, it was connectionless datagram service. Later it evolved to connection-oriented.
A. Only I
B. Only ii
C. Only iii is correct
D. Both i and iii
E. None of these

140. **Direction:** Read the given passage carefully. Choose the most appropriate option from the given alternatives which expresses the summary of the passage.
Starting in the late 19th century there had been many accounts by scientists and physicians on the antibacterial properties of the different types of moulds including the mould Penicillium but they were unable to discern what process was causing the effect. The effects of penicillium mould would finally be isolated in 1928 by Scottish scientist Alexander Fleming, in work that seems to have been independent of those earlier observations. Fleming recounted that the date of his discovery of penicillin was on the morning of Friday 28 September 1928. The traditional version of this story describes the discovery as a serendipitous accident: in his laboratory in the basement of St Mary's Hospital in London, Fleming noticed a Petri dish containing Staphylococci that had been mistakenly left open was contaminated by blue-green mould from an open window, which formed a visible growth. There was a halo of inhibited bacterial growth around the mould. Fleming concluded that the mould released a substance that repressed the growth and caused lysing of the bacteria.
i. After years of intense research and using cutting edge technology, Alexander Fleming discovered the antibacterial properties of a mould and went to make antibiotics.
ii. Starting from the 19th century, scientists had many accounts of bacteria-killing certain types of moulds, but it was the concrete prove came by a serendipitous accident involving Alexander Fleming.

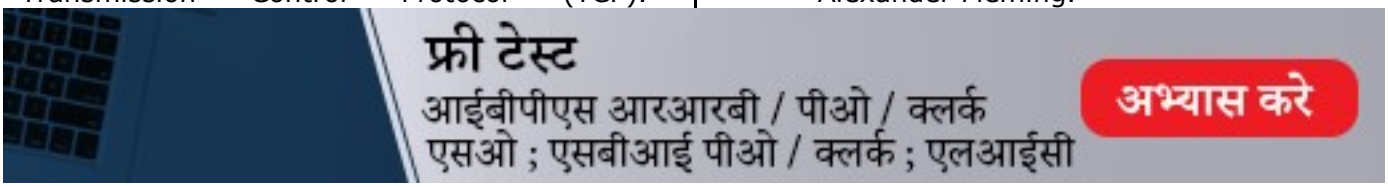

iii. Alexander Fleming discovered in his laboratory in the basement of St Mary's Hospital in London the antibacterial property of a mould that had entered through a window.

A. Only I B. Only ii
C. Only iii D. Both i and iii
E. None of these

141. **Direction:** Read the given passage carefully. Choose the most appropriate option from the given alternatives which expresses the summary of the passage.

Kintsugi, also known as Kintsukuroi, is the Japanese art of repairing broken pottery with lacquer dusted or mixed with powdered gold, silver, or platinum, a method similar to the maki-e technique. As a philosophy, it treats breakage and repair as part of the history of an object, rather than something to disguise. Kintsugi can be seen to have similarities to the Japanese philosophy of wabi-sabi, an embracing of the flawed or imperfect. Japanese aesthetics values marks of wear by the use of an object. This can be seen as a rationale for keeping an object around even after it has broken and as a justification of kintsugi itself, highlighting the cracks and repairs as simply an event in the life of an object rather than allowing its service to end at the time of its damage or breakage.

i. The Japanese art wabi-sabi is the art of repairing broken objects with lacquer dusted or mixed with expensive gold; it symbolises the importance of flaws and embracing them.

ii. Kintsugi is the Japanese art of repairing pottery wherein the cracks are filled with expensive material; it teaches that bad events are a part of life and don't necessarily mark the end of it.

iii. Kintsugi is the Japanese art as per which, the cracks of a broken material are highlighted with expensive metal, to increase its value and sell it at higher price.

A. Only I B. Only ii
C. Only iii D. Both i and iii
E. None of these

142. **Direction:** In the given question, a word/phrase is given followed by three statements; I, II and III. Choose the pair of sentences which can be combined using the given word/ phrase when used at the beginning of the new sentence.

Lest

I. The traders have become increasingly reluctant to invest in the stock market.

II. The resources allocated for the railways have shot up, meanwhile the government has decided to accept more people in the education sector.

III. The latest budget and the changes introduced by the government might completely change the economic structure of the nation.

A. Only I and III B. Only II and III
C. Only I and II D. All I, II and III
E. None of these

143. **Direction:** In the given question, a word/phrase is given followed by three statements; I, II and III. Choose the pair of sentences which can be combined using the given word/ phrase when used at the beginning of the new sentence.

Since

I. War historically has interrupted the flow of consumer goods,

II. Wars are considered to bring laurels to the victor.

III. Preserving our hard-earned possessions provides an additional disincentive to war.

A. Both I and II B. Both I and III
C. Both II and III D. All I, II and III
E. None of these

144. **Direction:** In the given question, a word/phrase is given followed by three statements; I, II and III. Choose the pair of sentences which can be combined using the given word/ phrase when used at the beginning of the new sentence.

Although

I. Miss Sullivan is rather amused than distressed when someone, even one of her friends, makes mistakes in published articles about her and Miss Keller.

II. She sees that Miss Keller's book should include all the information that the teacher could at present furnish.

III. Accompanied by Miss Sullivan, Keller is desirous of making a complete inspection of the Exposition in all Departments.

A. Both I and II B. Both I and III
C. Both II and III D. All I, II and III
E. None of these

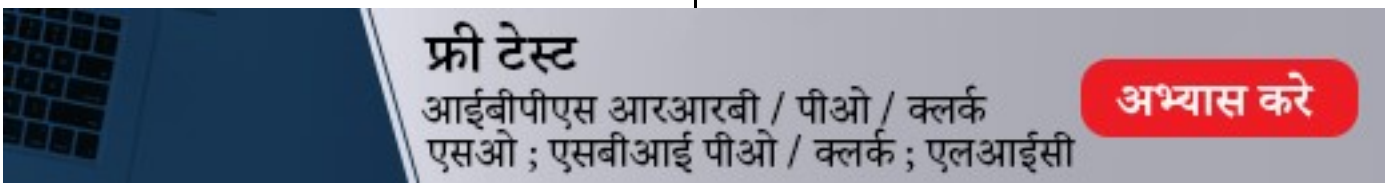

145. **Direction:** A sentence with two blanks is given, each blank indicating that something has been omitted. Choose the words, a pair that represents the masculine and feminine gender of each other, that best fit the meaning of the sentence as a whole.
The uncle described his _____ and _____ as naughty as their father was during his childhood.
A. Prophet, Prophetess
B. Protector, Protectress
C. Master, Mistress
D. Nephew, Niece
E. Actor, Actress

146. **Direction:** A sentence with two blanks is given, each blank indicating that something has been omitted. Choose the words, a pair that represents the masculine and feminine gender of each other, that best fit the meaning of the sentence as a whole.
On the one hand, the man was looking for a wedding ring for his _____, while on the other, the woman was planning a surprise party for her _____.
A. Fiancée, Fiancé
B. Murderess, Murderer
C. Bride, Bridegroom
D. Conductress, Conductor
E. Goddess, God

147. **Direction:** Read the given passage carefully. Choose the most appropriate option from the given alternatives which expresses the summary of the passage.
The Great Depression was a severe worldwide depression that took place mostly during the 1930s, beginning in the United States. The timing of the Great Depression varied across nations; in most countries it started in 1929 and lasted until the late-1930s. It was the longest, deepest, and most widespread depression of the 20th century. In the 21st century, the Great Depression is commonly used as an example of how far the world's economy can decline.The Great Depression started in the United States after a major fall in stock prices that began around September 4, 1929, and became worldwide news with the stock market crash of October 29, 1929 (known as Black Tuesday). Between 1929 and 1932, worldwide gross domestic product (GDP) fell by an estimated 15%. By comparison, worldwide GDP fell by less than 1% from 2008 to 2009 during the Great Recession. Some economies started to recover by the mid-1930s. However, in many countries, the negative effects of the Great Depression lasted until the beginning of World War II.
i. The Great Depression was a global level economic depression which was triggered with the market crash of 1929 and went on till late 1930s for most of the countries.
ii. Great Depression was a period of severe depression in teenagers and young adults which happened majorly due to the uncertainty and disruption cause by the world war.
iii. The Great Depression started after World War - II and lasted for over a decade, and now is a widely used example as to how much the world's economy can decline.
A. Only I
B. Only ii
C. Only iii
D. Both i and iii
E. None of these

148. **Direction:** Read the given passage carefully. Choose the most appropriate option from the given alternatives which expresses the summary of the passage.
Chapter XVI, Section 377 of the Indian Penal Code dating back to 1861, introduced during the British rule of India criminalises sexual activities against the order of nature, including homosexual sexual activities. The section was decriminalized with respect to sex between consenting adults by the High Court of Delhi on July 2009. That judgement was overturned by the Supreme Court of India on 11 December 2013 with the Court holding that amending or repealing Section 377 should be a matter left to Parliament, not the judiciary. On 24 August 2017, the Supreme Court ruled that the Right to Equality was a fundamental right, called for equality and condemned discrimination, stated that the protection of sexual orientation lies at the core of the fundamental rights and that the rights of the LGBT population are real and founded on constitutional doctrine.
i. Though section 377 of the Indian Penal Code criminalized homosexuality in India, the law has been subjected to numerous debates and has ultimately been overturned.
ii. In its landmark judgement on 24 August 2017, the Supreme court ruled that the protection of sexual orientation lies at the core of the fundamental rights and it may go

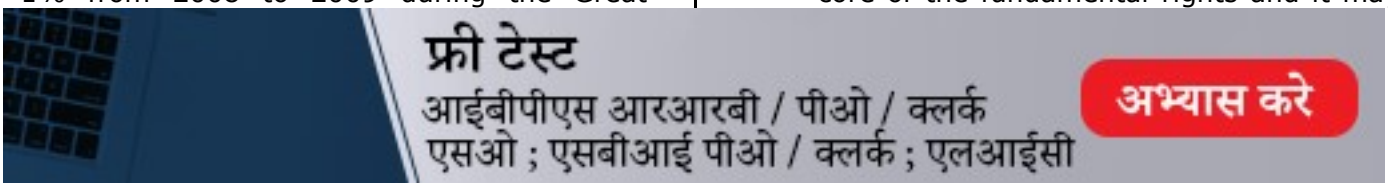

a long way in overturning section 377, which criminalizes homosexuality.

iii. After years of debate and turmoil, it is only recently that the rights of the LGBT community are being realized and soon section 377, which decriminalizes homosexuality, might be amended.

A. Only I B. Only ii
C. Only iii D. Both ii and iii
E. None of these

Direction (149-155): Read the following passage carefully and answer the questions that follow. Certain words are printed in bold to help you locate them while answering some of these.

The economy of the United States is a highly developed mixed economy. It is the world's largest economy by nominal GDP and second largest by purchasing power parity (PPP). The U.S. GDP was estimated to be $18.46 trillion in 2016. It had the world's seventh-highest per capita GDP (nominal) and eleventh-highest per capita GDP (PPP) in 2016. The U.S. dollar is the currency most used in international transactions and is the world's foremost reserve currency, backed by its science and technology, its military, the full faith of the US government to reimburse its debts, its central role in a range of international institutions since World War II and the petrodollar system. Several countries use it as their official currency, and in many others, it is the de facto currency. Its largest trading partners are China, Canada, Mexico, Japan, Germany, South Korea, United Kingdom, France, India, and Taiwan.

The US economy is fueled by abundant natural resources, a well-developed infrastructure, and high productivity. It has the second-highest total estimated value of natural resources, valued at $45 trillion in 2016. Americans have the highest average household and employee income among OECD nations, and in 2010 had the fourth highest median household income, down from second highest in 2007. It has been the world's largest national economy (not including colonial empires) since at least the 1890s. The U.S. is the world's third-largest producer of oil and natural gas. It is currently the largest trading nation in the world as well as the world's second-largest manufacturer, representing a fifth of the global manufacturing output. The US not only has the largest internal market for goods but also dominates the trade in services. US total trade amounted to $4.92 trillion in 2016. Of the world's 500 largest companies, 134 are headquartered in the US.

The United States has one of the world's largest and most influential financial markets. The New York Stock Exchange is by far the world's largest stock exchange by market capitalization. Foreign investments made in the US total almost $2.4 trillion, while American investments in foreign countries total over $3.3 trillion. The economy of the U.S. leads in international ranking on venture capital and Global Research and Development funding. Consumer spending comprises 71% of the US economy in 2013. The United States has the largest consumer market in the world, with a household final consumption expenditure five times larger than Japan's. The labour market has attracted immigrants from all over the world and its net migration rate is among the highest in the world. The U.S. is one of the top-performing economies in studies such as the Ease of Doing Business Index, the Global Competitiveness Report, and others.

The US economy went through an economic downturn following the financial crisis of 2007–08, with output as late as 2013 still below potential according to the Congressional Budget Office. The economy, however, began to recover in the second half of 2009, and as of 2016, unemployment had declined from a high of 10% to 4.7%. In December 2014, public debt was slightly more than 100% of GDP. Domestic financial assets totalled $131 trillion and domestic financial liabilities totalled $106 trillion.

Source: https://en.wikipedia.org

149. Which of the following isn't a factor that has made the US economy successful?
A. High productivity
B. Lack of immigrants
C. Abundant natural resources
D. Well-developed infrastructure
E. None of these

150. In which of the following fields does the US rank third in the world?
A. Manufacturing
B. Finance
C. Oil and Natural Gas
D. Coal and Petroleum
E. Exporting manufactured goods

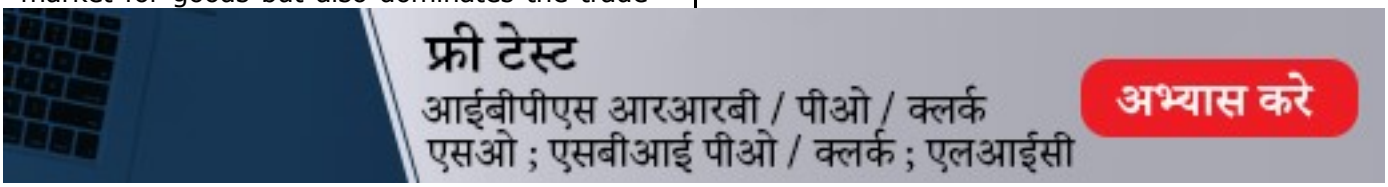

151. What effect did the labor market have on the immigrants?
A. It has attracted immigrants from all over the world.
B. Immigrants are yet not sure of the potential of labor market and so they give US a miss.
C. There is no direct influence
D. No immigrants are allowed in US.
E. None of these
152. In which of the following sector does the US hold a 20% share in the global output?
A. Coal and Petroleum
B. Manufacturing
C. Oil and Natural Gas
D. Primary Sector
E. None of these
153. Why is the US dollar the most used currency in the international transactions?
A. Because it is very well made.
B. Because a strong backing makes the US dollar a safe currency to make transactions in.
C. Because the US currency often remains in fashion.
D. Because the US dollar has chips that can be tracked, so risk of foul play is the least when transactions are done in US dollars
E. None of these
154. Which of the following was a repercussion of the financial crisis on the US economy?
A. The US economy wasn't affected at all.
B. The US economy went through an economic downturn.
C. The US economy started to rise following the financial crisis.
D. The US economy stagnated for a while.
E. None of these
155. Which of the following is the most suitable title for the given passage?
A. The financial crisis of 2007
B. Globalization
C. Economy of the United States
D. The importance of World Bank
E. None of these

Direction (156-160): In the following passage, there are blanks each of which has been numbered. These numbers correspond to the question numbers; against each question, five phrases have been suggested, one of which fills the blanks appropriately.

Google claims that a new deep learning model designed by it and its UC San Francisco, Stanford Medicine, and The University of Chicago Medicine colleagues has predicted the 'inpatient mortality' **(###Q1###)** of 95 percent. Machine learning, which was previously applied to actions like traffic predictions, translations and like has, in a recent attempt, been used for healthcare by a Google team. The **(###Q2###)** the computer system came out to be astonishingly accurate, as they predicted if the patient will stay long in the hospital with an 86 percent accuracy and further unexpected readmissions with a 77 percent accuracy, marking 'statistical significance' in the area. In addition to making the predictions, the deep learning models were also used to recognise the patient's condition. Google gives an instance for this: "if a doctor prescribed ceftriaxone and doxycycline for a patient with an elevated temperature, fever and cough, the model could identify these as signals that the patient was being treated for pneumonia." In a blog, Google calls its program a "good listener" **(###Q3###)** to gather the patient's data including their ongoing treatments and notes. The new program aims to eliminate the discrepancies caused by different Electronic Health Records (EHR) found in individually customised EHR systems of hospitals. In essence, the patient data differs from one hospital to another. To solve this, the deep learning mechanism reads all the data points from the patient's EHRs and then decides which data can be used to **(###Q4###)**. The program also identifies the specific data set which it used the make the prediction. Google protected the data used for this observation **(###Q5###)** including "logical separation, strict access controls, and encryption of data at rest and in transit".As of now, Google says that the entire idea is still in its early age and that the test simply suggests how machine learning can be used to improve healthcare.

156. Find the appropriate phrase in each case.
A. having a range
B. to an extent
C. with accuracy
D. approximately around
E. can be assumed
157. Find the appropriate phrase in each case.
A. logical estimations of
B. clinical predictions by
C. approximations made with
D. probability made by
E. measurements calculated by

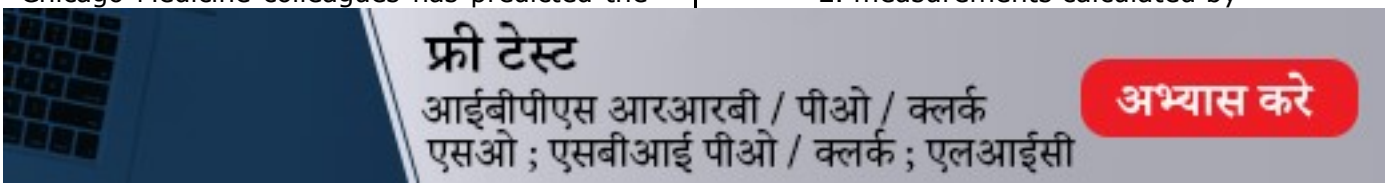

158. Find the appropriate phrase in each case.
A. of its facility
B. as it is efficient
C. due to its power
D. because it's suitable
E. for its capability

159. Find the appropriate phrase in each case.
A. combat the situation
B. predict the outcome
C. suggest alternatives.
D. make a point
E. come to a conclusion

160. Find the appropriate phrase in each case.
A. using prevention techniques
B. by authenticating
C. use some features
D. by eliminating problems
E. with security measures

निर्देश (161-170): नीचे दिए गए गधांश को ध्यानपर्वूक पढ़िए और उस पर आधारित प्रश्नों के उत्तर दीजिए। कुछ शब्द काले मोटे अक्षरों से मुद्रित किए गए हैं। जिससे आपको कुछ प्रश्नों के उत्तर देने में सहायता मिलेगी।

शहर आर्थिक वृद्धि और नये तौर-तरीकों को गति देते हैं। शहरी भारतीयों की अब देश की आबादी में एक-तिहाई हिस्सेदारी है और वे देश के सकल घरेलू उत्पाद (जीडीपी) का 60 प्रतिशत से अधिक तैयार करते हैं। आवास भारतीय अर्थव्यवस्था के लिए महत्त्वपूर्ण क्षेत्र है क्योंकि यह 269 अन्य उद्योगों से जुड़ा हुआ है। आवास क्षेत्र के विकास का रोजगार **सृजन**, सकल घरेलू उत्पाद की वृद्धि और अर्थव्यवस्था में खपत के तरीके पर सीधा प्रभाव पड़ता है। दुनिया भर में यह लगातार महसूस किया जा रहा है कि टिकाऊ आवासीय एवं शहरी विकास का जीवन की गुणवत्ता और लोगों के सामाजिक तथा आर्थिक कल्याण पर महत्त्वपूर्ण प्रभाव होता है। शहरों में मकानों की कमी पर पूर्ववर्ती आवास एवं शहरी गरीबी उन्मूलन मंत्रालय द्वारा गठित तकनीकी समूह, 2012-17 के अनुसार 187.8 लाख मकानों की कमी है।

आजादी के बाद से भारत ने गरीबों को मकान दिलाने के लिए कई नीतियां और कार्यक्रम चलाए हैं। इनमें औद्योगिक कामगारों और आर्थिक रूप से कमजोर वर्ग के लिए एकीकृत सब्सिडी युक्त आवासीय योजना (1952), कम आय वर्ग आवासीय योजना (1956), झुग्गी सुधार/उन्मूलन योजना (राष्ट्रीय स्तर पर 1956 में आरंभ और 1972 में समाप्त)। सरकार ने किफायती आवास की चुनौतियों से निपटने के लिए कई नीतिगत उपाय भी किए हैं। पहली राष्ट्रीय आवास नीति की घोषण 1988 में हुई। केन्द्र में सरकार बदलने के बाद 1994 में संशोधित नीति आई। 1998 में नई आवास एवं पर्यावास नीति की घोषणा की गई। 2007 में एक नई नीति राष्ट्रीय शहरी आवास एवं पर्यावास नीति की घोषणा की गई, जिसमें सभी के लिए किफायती आवास का लक्ष्य प्राप्त करने हेतु विभिन्न प्रकार के सार्वजनिक-निजी साझेदारी को बढ़ावा देने की बात कही गई। सरकार ने सुधार के ऐसे कई उपाय किये हैं, जिन्होंने किफायती आवास क्षेत्र को निवेश का आकर्षक ठिकाना बना दिया है। 1 मई, 2017 को लागू किया गया रियल एस्टेट निवेश ट्रस्ट (रीट) उचित, पारदर्शी सौदों के जरिये असंगठित रियल एस्टेट क्षेत्र का नियमन करता है, जिससे निवेशकों का भरोसा बढ़ता है और ग्राहकों के हित सुरक्षित रहते हैं। आवास क्रेताओं को विवेकहीन डेवलपर्स से बचाने के लिए भारत सरकार द्वारा रियल एस्टेट (विनियम व विकास) अधिनियम, 2016 नामक महत्त्वपूर्ण कानून 1 मई 2017 को लाया गया। 2016-17 और 2017-18 के बजट में आयकर अधिनियम की धारा 80 आईबीए के अंतर्गत प्रत्यक्ष लाभ अंतरण जैसी वित्तीय रियायतों, एफडीआई और ईसीबी प्रस्तावों में ढिलाई तथा कॉरपेट एरिया को परिभाषा के मानकीकरण जैसे कदमों से अनुकूल वातावरण तैयार करने की बुनियाद रखी गयी।

स्मार्ट सिटी मिशन (एससीएम) शहरी विकास मंत्रालय का प्रमुख मिशन है, जिसका लक्ष्य उन शहरों को बढ़ावा देना है, जिनमें मूलभूत बुनियादी ढांचा उपलब्ध होता है और स्मार्ट तरीकों का प्रयोग कर अपने नागरिकों को अच्छी गुणवत्ता का जीवन प्रदान किया जाता है। अटल नवीकरण एवं शहरी परिवर्तन मिशन (अमृत) प्रत्येक परिवार को पानी को आपूर्ति एवं सीवेज कनेक्शन प्रदाने करने, खुले क्षेत्र को बेहतर बनाने और मोबिलिटी संबंधी सुविधाओं के जरिये प्रदूषण कम करने का प्रयास करता है ताकि मकानों को मूलभूत बुनियादी ढांचा मिल सके।

केन्द्र सरकार ने सबके लिए आवास मिशन, जिसे प्रधानमंत्री आवास योजना भी कहा जाता है, के तहत 305 शहरों व नगरों को चिन्हित किया है। इसके अंतर्गत 2022 तक शहरी गरीबों के लिए 2 करोड़ घर बनाने का लक्ष्य है।

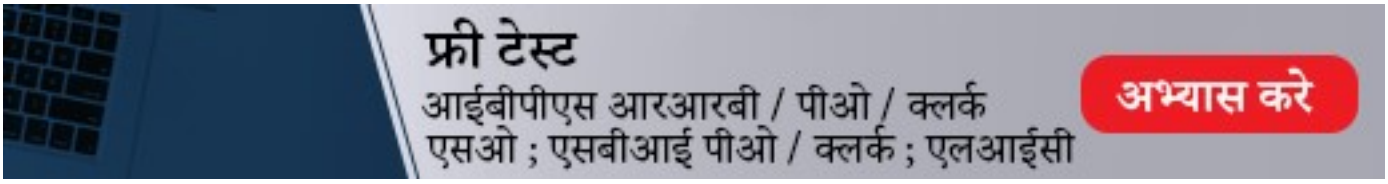

161. सरकार ने किफायती आवास की चुनौतियों को निपटने के लिए पहले कौन से नीति की घोषणा की गई?
A. आवास एवं पर्यावास नीति
B. अंबेडकर आवास योजना
C. प्रधानमंत्री आवास योजना
D. राष्ट्रीय आवास नीति
E. इनमें से कोई नहीं

162. दिए गए परिच्छेद के अनुसार, आवास भारतीय अर्थव्यवस्था के लिए महत्त्वपूर्ण क्षेत्र है क्योंकि यह _____ अन्य उद्योगों से जुड़ा हुआ है?
A. 262 B. 269
C. 275 D. 280
E. इनमें से कोई नहीं

163. केन्द्र सरकार के द्वारा आवास मिशन के तहत कितने शहरों एवं नगरों को चिन्हित किया गया?
A. 269 B. 305
C. 187 D. 205
E. इनमें से कोई नहीं

164. दिए गए परिच्छेद के अनुसार, कौन-से नीति में सार्वजनिक-निजी साझेदारी को बढ़ावा देने की बात की गई है?
A) राष्ट्रीय शहरी आवास नीति
B) राष्ट्रीय आवस नीति
C) पर्यावास नीति
A. केवल A B. केवल B
C. A और B D. A और C
E. केवल C

165. दिए गए परिच्छेद के अनुसार, शहरी विकास मंत्रालय का प्रमुख मिशन हैं-
A. अटल नवीकरण एवं शहरी परिवर्तन मिशन
B. राष्ट्रीय शहरी आवास एवं पर्यावास मिशन
C. स्मार्ट सिटी मिशन
D. राष्ट्रीय आवास नीति
E. इनमें से कोई नहीं

166. दिए गए परिच्छेद के अनुसार, कम आय वर्ग आवासीय योजना चलाई गई?
A. 1952 B. 1956
C. 2007 D. 1972
E. इनमें से कोई नहीं

167. आवास क्रेताओं को विवेकहीन डेवलपर्स से बचाने के लिए भारत सरकार द्वारा कौन-से नीति/अधिनियम/योजना लाया गया?
A) कम आय वर्ग आवासीय योजना (1956)
B) सब्सिडी युक्त आवासीय योजना (1952)
C) विनिमय व विकास अधिनियम (2016)
A. केवल A B. केवल B
C. A और B दोनों D. केवल C
E. इनमें से कोई नहीं

168. पूर्ववर्ती आवास एवं शहरी गरीबी उन्मूलन मंत्रालय द्वारा गठित तकनीकी समूह, 2012-17 के अनुसार कितने मकानों की कमी है?
A. 305 लाख B. 175 लाख
C. 187.9 लाख D. 190.0 लाख
E. इनमें से कोई नहीं

169. दिए गए परिच्छेद में 'सृजन' का विलोम शब्द होगा-
A. ग्राह्य B. असातत्य
C. तिक्त D. विनाश
E. दुर्बल

170. दिए गए परिच्छेद के अनुसार इस परिच्छेद का उपर्युक्त शीर्षक क्या होगा?
A. आवास मुहैया कराना
B. भूमि अधिग्रहण
C. वित्तपोषण
D. विनियमक क्षेत्र को बढ़ावा देना
E. इनमें से कोई नहीं

171. **निर्देश:** नीचे दिया गया प्रत्येक वाक्य चार भागों में बांटा गया है जिन्हें A, B, C और D क्रमांक दिए गए हैं। आपको यह देखना है कि वाक्य के किसी भाग में व्याकरण, भाषा,शब्दों के गलत प्रयोग या इसी तरह की कोई त्रुटि तो नहीं है। त्रुटि अगर होगी तो वाक्य के किसी एक भाग में ही होगी, उस भाग का क्रमांक ही उत्तर है। अगर वाक्य त्रुटिरहित है तो उत्तर कोई त्रुटि नहीं होगा।
यह तय है कि साधारण नागरिक (A)/ अपने अधिकारों और मन के (B)/ प्रति जितना जागरूक होगा, समाज (C)/ में परिवर्तन उतनी ही तेजी से आएगा। (D)
A. वाक्य A B. वाक्य B
C. वाक्य C D. वाक्य D
E. कोई त्रुटि नहीं

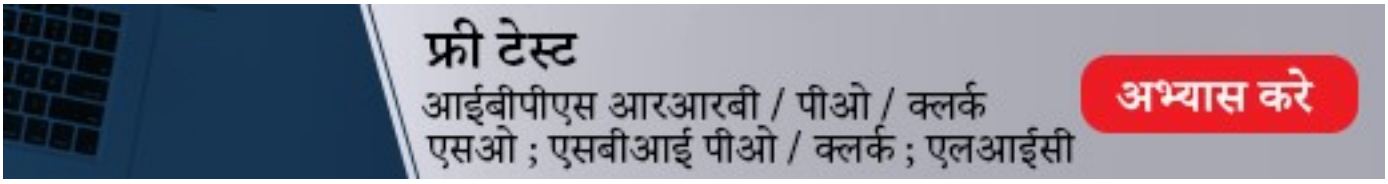

172. **निर्देश:** नीचे दिया गया प्रत्येक वाक्य चार भागों में बांटा गया है जिन्हें A, B, C और D क्रमांक दिए गए हैं। आपको यह देखना है कि वाक्य के किसी भाग में व्याकरण, भाषा, शब्दों के गलत प्रयोग या इसी तरह की कोई त्रुटि तो नहीं है। त्रुटि अगर होगी तो वाक्य के किसी एक भाग में ही होगी, उस भाग का क्रमांक ही उत्तर है। अगर वाक्य त्रुटिरहित है तो उत्तर कोई त्रुटि नहीं होगा ।

रामायण के कथा (A) / में राम का (B) / पूरा चरित्र-चित्रण (C) / किया गया है। (D)

A. वाक्य (A) B. वाक्य (B)
C. वाक्य (C) D. वाक्य (D)
E. कोई त्रुटि नहीं

173. **निर्देश:** नीचे दिया गया प्रत्येक वाक्य चार भागों में बांटा गया है जिन्हें A, B, C और D क्रमांक दिए गए हैं। आपको यह देखना है कि वाक्य के किसी भाग में व्याकरण, भाषा, शब्दों के गलत प्रयोग या इसी तरह की कोई त्रुटि तो नहीं है। त्रुटि अगर होगी तो वाक्य के किसी एक भाग में ही होगी, उस भाग का क्रमांक ही उत्तर है। अगर वाक्य त्रुटिरहित है तो उत्तर कोई त्रुटि नहीं होगा ।

इस समय (A) / मुझको (B) / मात्र सौ रूपये (C) / केवल चाहिए (D)

A. वाक्य (A) B. वाक्य (B)
C. वाक्य (C) D. वाक्य (D)
E. कोई त्रुटि नहीं

174. **निर्देश:** नीचे दिया गया प्रत्येक वाक्य चार भागों में बांटा गया है जिन्हें A, B, C और D क्रमांक दिए गए हैं। आपको यह देखना है कि वाक्य के किसी भाग में व्याकरण, भाषा, शब्दों के गलत प्रयोग या इसी तरह की कोई त्रुटि तो नहीं है। त्रुटि अगर होगी तो वाक्य के किसी एक भाग में ही होगी, उस भाग का क्रमांक ही उत्तर है। अगर वाक्य त्रुटिरहित है तो उत्तर कोई त्रुटि नहीं होगा ।

हमारे समीप (A) / इसकी कोई (B) / पूर्व (C) / सूचना नहीं है। (D)

A. वाक्य (A) B. वाक्य (B)
C. वाक्य (C) D. वाक्य (D)
E. कोई त्रुटि नहीं

175. **निर्देश:** नीचे दिया गया प्रत्येक वाक्य चार भागों में बांटा गया है जिन्हें A, B, C और D क्रमांक दिए गए हैं। आपको यह देखना है कि वाक्य के किसी भाग में व्याकरण, भाषा, शब्दों के गलत प्रयोग या इसी तरह की कोई त्रुटि तो नहीं है। त्रुटि अगर होगी तो वाक्य के किसी एक भाग में ही होगी, उस भाग का क्रमांक ही उत्तर है। अगर वाक्य त्रुटिरहित है तो उत्तर कोई त्रुटि नहीं होगा ।

नेताजी के खराब स्वास्थ्य (A)/ के कारण उनके सहयोगियों (B)/ ने सोमवार को होने (C)/ वाली बैठक स्थगित कर दी है। (D)

A. वाक्य A B. वाक्य B
C. वाक्य C D. वाक्य D
E. कोई त्रुटि नहीं

निर्देश (176-180): निम्नलिखित वाक्यों में उनके प्रथम तथा अंतिम अंश संख्या 1 और 6 के अंतर्गत दिए गए हैं। बीच वाले चार अंश (य), (र), (ल), (व) के अंतर्गत बिना क्रम के हैं।चारों अंशों को उचित क्रमानुसार व्यवस्थित कर उचिल विकल्प का चुनाव करे ।

(1) साहस और आत्मविश्वास के साथ जीना ही सच्चा जीवन हैं।

(य) ऐसे व्यक्ति के सामने पहाड़ भी अपना सिर झुका लेते हैं।

(र) एक बार असफल होने पर भी नई उमंग, नए विश्वास व नए साहस से फिर प्रयत्न करता है।

(ल) और दुराशा उसके पास तक नहीं फटकती।

(व) साहसी व्यक्ति कभी-भी अपना कर्म नहीं छोड़ता।

(6) ऐसे ही व्यक्ति अपने राष्ट्र व समाज के नेता होते हैं।

A. र ल व य B. ल र व य
C. व र य ल D. य र ल व
E. य व र ल

177. **(1)** भाषा को सीखना उसके साहित्य को मानना है

(य) जब हम साहित्य के स्वर में बोलते हैं तब वे स्वर दुस्तर समुद्रों पर सेतु बाँधकर

(र) और साहित्य को जानना मानव-एकता की स्वानुभूति है

(ल) दुर्लंध्य पर्वतों को राजपथ बनाकर

(व) मनुष्य की सुख-दु:ख की कथा

(6) मनुष्य तक अनायास पहुँचा देते हैं।

A. र य ल व B. ल र व य
C. य र ल व D. व र य ल
E. ल य र व

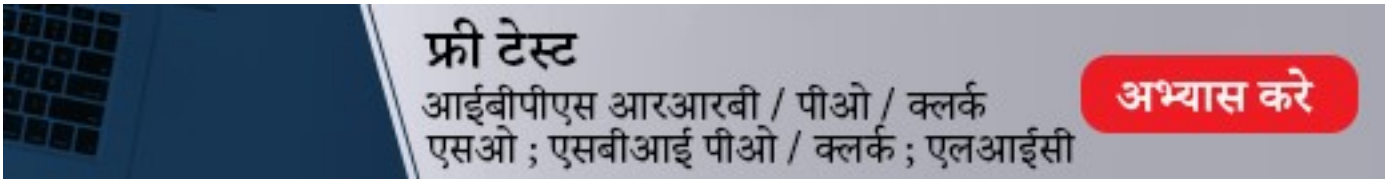

178. **(1)** रिपोर्ताज मूलत: फ्रांसीसी शब्द है और अंग्रेजी के 'रिपोर्ट' शब्द का पर्यायवाची तथा साहित्यिक नाम है।

(य) इसमें कुछ महत्त्वपूर्ण घटनाओं तथा पाठकों की विशिष्टताओं का निजी सूक्ष्म निरीक्षण के आधार पर मनोवैज्ञानिक विवेचन तथा विश्लेषण होता है ।

(र) वह इस प्रकार लिखता है कि वह जो कुछ लिख रहा है मानो उसका आँखो देखा ही हो।

(ल) रिपोर्ताज के लेखक को अपने वर्ण विषय का पूर्ण ज्ञान होता है।

(व) रिपोर्ताज में किसी घटना का इस प्रकार वर्णन किया जाता है कि पाठक उससे प्रभावित हो जाता है।

(6) इसकी शैली विवरणात्मक तथा वर्णनात्मक होती है, जिसमें सरलता, रोचकता, आत्मीयता तथा प्रभावपूर्णता का विशेष महत्त्व होता है।

A. ल र व य
B. र ल य व
C. य र ल व
D. ल य व र
E. व ल र य

179. **(1)** यदि वह विज्ञान का विद्यार्थी है

(य) यदि वह संस्कृत का आचार्य शास्त्री है

(र) किन्तु दोनों दूसरों का उपकरण ही बन सकते हैं

(ल) तो वह कुशल शिल्पी बन सकता है

(व) तो वह पौरोहित्य या अध्यापन का कार्य कर सकता है।

(6) और समाज और राजनीति के संचालन में वह अपने को असमर्थ पाते हैं।

A. य र ल व
B. र व य ल
C. ल य व र
D. व ल य र
E. ल व र य

180. **(1)** नखधर मनुष्य अब एटम बम पर भरोसा करके आगे की ओर चल पड़ा है।

(य) अब भी वह याद दिला देती है कि

(र) अब भी प्रकृति मनुष्य को उसके भीतर वाले अस्त्र से वंचित नहीं कर सकी है।

(ल) पर उसके नाखून अब भी बढ़ रहे हैं।

(व) तुम्हारे नाखून को भुलाया नहीं जा सकता।

(6) तुम वही लाख वर्ष पहले के नख-दंतावलम्बी जीव हो, पशु के साथ एक सतह पर विचरने वाले और चरने वाले।

A. ल र य व
B. य र ल व
C. व य र ल
D. ल र व य
E. र व ल य

181. **निर्देश:** नीचे शब्द दिए गए हैं जिनमें से एक में वर्तनी संबंधी त्रुटि हो सकती है। उस त्रुटियुक्त शब्द ही आपका उत्तर होगा। यदि चारों शब्द शुद्ध लिखे हों तो सभी शुद्ध हैं आप का उत्तर होगा ।

A. ऊर्ध्वगामी
B. बहूमुल्य
C. बुद्धिजीवी
D. निष्कलंक
E. सभी शुद्ध हैं

182. **निर्देश:** नीचे शब्द दिए गए हैं जिनमें से एक में वर्तनी संबंधी त्रुटि हो सकती है। उस त्रुटियुक्त शब्द ही आपका उत्तर होगा। यदि चारों शब्द शुद्ध लिखे हों तो सभी शुद्ध हैं आप का उत्तर होगा ।

A. युधिष्ठिर
B. गुझिया
C. उसूल
D. परीविक्षाधीन
E. सभी शुद्ध हैं

183. **निर्देश:** नीचे शब्द दिए गए हैं जिनमें से एक में वर्तनी संबंधी त्रुटि हो सकती है। उस त्रुटियुक्त शब्द ही आपका उत्तर होगा। यदि चारों शब्द शुद्ध लिखे हों तो सभी शुद्ध हैं आप का उत्तर होगा ।

A. पूण्यतिथि
B. भग्नावशेष
C. मुमूर्षा
D. दूरदर्शी
E. सभी शुद्ध हैं

184. **निर्देश:** नीचे शब्द दिए गए हैं जिनमें से एक में वर्तनी संबंधी त्रुटि हो सकती है। उस त्रुटियुक्त शब्द ही आपका उत्तर होगा। यदि चारों शब्द शुद्ध लिखे हों तो सभी शुद्ध हैं आप का उत्तर होगा ।

A. कीर्तिमान
B. सामंजस्य
C. स्वास्थ्यवर्धक
D. विपतिजनक
E. सभी शुद्ध हैं

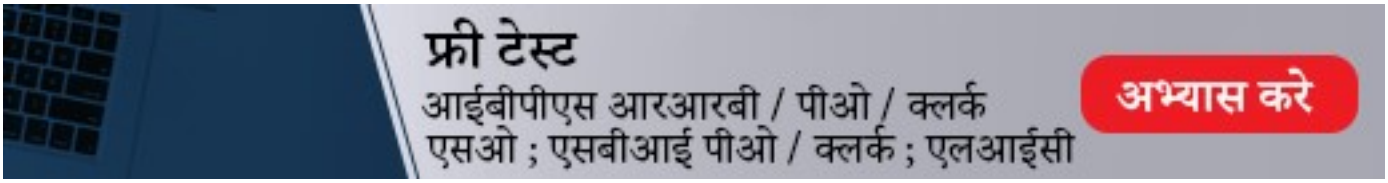

185. **निर्देश:** नीचे शब्द दिए गए हैं जिनमें से एक में वर्तनी संबंधी त्रुटि हो सकती है। उस त्रुटियुक्त शब्द ही आपका उत्तर होगा। यदि चारों शब्द शुद्ध लिखे हों तो सभी शुद्ध हैं आप का उत्तर होगा ।

A. दिव्यांगना B. मंतव्य
C. अगन्तुक D. पुनरावृत्ति
E. सभी सही हैं

निर्देश (186-195):नीचे दिए गए गद्यांश में रिक्त स्थानों की पूर्ति कीजिये।

दिल्ली सल्तनत के बहुत कम मुस्लिम (###Q186###) ने दक्खिन भारत की ओर ध्यान दिया। उत्तर भारत में उनका राज्य कुछ क्षेत्रों तक रहा। अलाउद्दीन खिलजी ने दक्खिन भारत को जीतने का (###Q187###) अवश्य किया था। परन्तु उनको अपने राज्य में नहीं मिलाया था। केवल कुछ समय तक कर जरूर प्राप्त किया था। मौहम्मद तुगलक ने दक्खिन भारत में विद्रोहों के दमन का यत्न किया था पर वह (###Q188###) रहा था। विशेषकर दक्खिन में दो प्रसिद्ध राज्यों का निर्माण हो गया था। ये थे बहमनी तथा विजयनगर साम्राज्य। बहमनी राज्य की (###Q189###) मूलत: एक ब्राह्मण द्वारा की गई थी। बहमनी राज्य में मुसलमानों की संख्या बहुत कम थी, अत: अन्य देशों के मुसलमानों को (###Q190###) किया गया था। इरान, अरब तथा तुर्की राज्य से मुसलमान आये। शासन में विदेशियों को प्रमुख (###Q191###) दिया गया। इरान के शिया मुसलमान युसुफ अली ने बीजापुर राज्य की स्थापना की। गोलकुण्डा व बीदर के लिए तुर्क राज्य के वंशजों ने राज्य स्थापित किया। बरार व अहमदनगर में पुराने ब्राह्मण परिवारों में जिसने इस्लाम धर्म अपना लिया था, उन्हें राज्य दिया गया। इस भांति ये सभी शासक कट्टरवाद तथा (###Q192###) के प्रतिनिधि बनकर शासन करने लगे थे। जहां तक (###Q193###) हिंदू जनता के प्रति उनकी नीति का सम्बन्ध था, वह प्राय: कटुता तथा (###Q194###) की ही बनी रही। ऐसी विषम तथा विपरीत परिस्थितियों में दक्खिन भारत में विजयनगर राज्य की स्थापना, मुस्लिम शासकों के लिए एक महान चुनौती थी। वस्तुत: यह हिन्दुओं के लिए बड़ा (###Q195###) इतिहास का पृष्ठ था।

186. प्रत्येक प्रश्नों में उचित शब्द का पता लगाएं।

A. मौलवियों B. शासकों
C. शत्रुओं D. प्रशंसकों
E. प्रचारकों

187. प्रत्येक प्रश्नों में उचित शब्द का पता लगाएं।

A. प्रयत्न B. अभ्यास
C. प्रसार D. प्रारम्भ
E. अभियोजन

188. प्रत्येक प्रश्नों में उचित शब्द का पता लगाएं।

A. अपूर्ण B. असफल
C. प्रभावहीन D. आक्रामक
E. नकारात्मक

189. प्रत्येक प्रश्नों में उचित शब्द का पता लगाएं।

A. प्रसिद्धि B. स्थापना
C. विफलता D. पराजय
E. स्थगित

190. प्रत्येक प्रश्नों में उचित शब्द का पता लगाएं।

A. पराजित B. प्रेरित
C. प्रभावित D. विकसित
E. आमंत्रित

191. प्रत्येक प्रश्नों में उचित शब्द का पता लगाएं।

A. भाग B. सेना
C. भार D. स्थान
E. सम्पत्ति

192. प्रत्येक प्रश्नों में उचित शब्द का पता लगाएं।

A. इस्लामवाद B. आतंकवाद
C. समाजवाद D. सेकुलरवाद
E. न्यायवाद

193. प्रत्येक प्रश्नों में उचित शब्द का पता लगाएं।

A. गरीब B. बहुसंख्यक
C. अधिक D. जागरूक
E. आशावादी

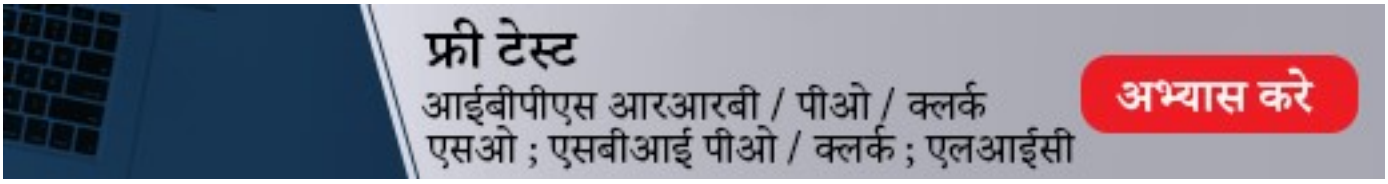

194. प्रत्येक प्रश्नों में उचित शब्द का पता लगाएं।

A. असमानता B. सानिध्य
C. विरोध D. स्नेहपूर्ण
E. भिन्न

195. प्रत्येक प्रश्नों में उचित शब्द का पता लगाएं।

A. शर्मनाक B. प्रसन्नता
C. सफलता D. गौरवपूर्ण
E. स्वर्णीम

196. **निर्देश:** निम्नलिखित पाँच में से चार समानार्थी शब्द हैं। इनसे से एक शब्द भिन्न दिया गया है, वही आपका उत्तर होगा।

A. रोदन B. क्रंदन
C. रूदन D. अलक
E. विलपना

197. **निर्देश:** निम्नलिखित पाँच में से चार समानार्थी शब्द हैं। इनसे से एक शब्द भिन्न दिया गया है, वही आपका उत्तर होगा।

A. अचरज B. आख्यान
C. विस्मय D. अचम्भा
E. हैरानी

198. **निर्देश:** निम्नलिखित पाँच में से चार समानार्थी शब्द हैं। इनसे से एक शब्द भिन्न दिया गया है, वही आपका उत्तर होगा।

A. क़िस्मत B. भाग्य
C. तकदीर D. ललाट
E. तात

199. **निर्देश:** निम्नलिखित पाँच में से चार समानार्थी शब्द हैं। इनसे से एक शब्द भिन्न दिया गया है, वही आपका उत्तर होगा।

A. मतंग B. करी
C. खर D. सिंधुर
E. हस्ती

200. निम्नलिखित पाँच में से चार समानार्थी शब्द हैं। जिस क्रमांक में इनसे भिन्न शब्द दिया गया है, वही आपका उत्तर होगा।

A. याम B. दिवा
C. गात D. वासर
E. दिवस

201. -------- वॉइस डाटा को शब्दो में इंटरप्रेट कर सकता है जिसे कंप्यूटर समझ सकता है।

A. स्पीच इनपुट हार्डवेयर
B. टॉकिंग सॉफ्टवेयर
C. वर्ड रिकोग्नीशन सॉफ्टवेयर
D. स्पीच रिकोग्नीशन सॉफ्टवेयर
E. एडोब रीडर

202. किसी काम को पूरा करने के लिए अपनाई गई क्रमागत विधियो के समूह को कहते है-

A. एग्लोरिथ्म B. हार्डवेयर प्रोग्राम
C. सॉफ्टवेयर बग D. फर्मवेयर प्रोग्राम
E. इनमें से कोई नही

203. इंटरनेट पर सर्वर से सूचना प्राप्त करने के कंप्यूटर के प्रोसेस का अर्थ निम्न में से कौन-सा हैं?

A. गैदरिंग B. अपलोडिंग
C. इनपुटिंग D. आउटपुटिंग
E. डाउनलोडिंग

204. आमतौर पर___के विरुद्ध बचाव के लिए फ़ायरवॉल का प्रयोग किया जाता है|

A. फायर अटैक B. डाटा ड्रिवेन अटैक्स
C. वायरस अटैक्स D. अनाधिक्रत उपयोग
E. इनमें से कोई नहीं

205. वेबसाइट में 'होम' पेज का क्या अर्थ है?

A. सबसे अच्छा पेज B. अंतिम पेज
C. प्रथम पेज D. सबसे हाल का पेज
E. सबसे पुराना पेज

206. पर्सनल कंप्यूटर को चौथी पीढ़ी माना जाता है, और ये _____से मिलकर बने होते हैं।

A. इनफार्मेशन B. डाटा
C. वैक्यूम ट्यूब्स D. वी एल एस आई सर्किट
E. इनमें से कोई नहीं

207. कंप्यूटर पर क्रिएट की गई फाइल की हार्ड कॉपी निम्नलिखित डाटा को रिफर करती है ।

A. फ्लापी डिस्क पर सेव
B. प्रिन्टर पर प्रिन्टेड
C. टेप ड्राइव पर बैक्ड अप
D. बतौर ई-मेल प्रेषित
E. इनमें से काई नहीं

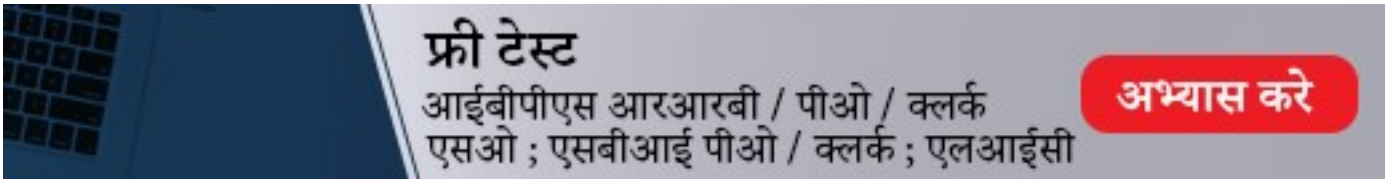

208. वह कौन सा ऑपरेटिंग सिस्टम है जो डिवाइस में स्वतः पूर्ण है और ROM में रहता है।
A. बैच ऑपरेटिंग सिस्टम
B. रीयल-टाइम ऑपरेटिंग सिस्टम
C. एम्बेडिड ऑपरेटिंग सिस्टम
D. मल्टी प्रोसेसर ऑपरेटिंग सिस्टम
E. इनमें से कोई नहीं

209. जो भाषा कंम्प्यूटर में प्रयोग होती है और मनुष्यों की भाषा के समान होती है और समझने में आसान होती है, उसे _____ कहते हैं।
A. सोर्स कोड
B. मशीन की भाषा
C. उच्च स्तरीय भाषा
D. ऑब्जेक्ट कोड
E. एसेम्बली भाषा

210. RAM में स्टोर की गई सूचना वोलेटाइल मानी जाता है, जिसका अर्थ है कि ----
A. वहा स्थाई रूप से स्टोर्ड है
B. स्थाई रूप से नहीं, केवल अस्थाई रूप से है
C. जब बिजली बंद की जाए तो स्टोर की जाती है
D. CPU डिवाइस में स्थाई रूप से स्टोर की जाती है
E. इमनें से कोई नहीं

211. सेल को कॉपी करने के लिए आप कब कंट्रोल की को होल्ड करते हुए साथ-साथ सेल बार्डर को ड्रैग करेंगे?
A. जब एक से ज्यादा सेल कॉपी करने हों
B. विंडोज में कुछ ही सेल दिखते हों
C. आप एब्सोल्यूट रेफरेंस को रेफर नहीं करना चाहते हों
D. सेलों के बीच दूरी कम हो और दोनों विंडों में देखते हों
E. इनमें से कोई नहीं

212. षोडश (हेक्साडेसिमल) संख्या प्रणाली का आधार क्या है?
A. 2
B. 8
C. 16
D. 10
E. इनमें से कोई नही

213. कम्प्यूटर के संदर्भ में कम्पैटिबिलिटी का क्या अर्थ है?
A. साफ्टवेयर प्रयोक्ता के लिए सही काम कर रहा है
B. यह जॉब को हैंडल करने के लिए वर्सेटाइल है
C. सॉफ्टवेयर कंप्यूटर पर चलने में समर्थ है
D. सॉफ्टवेयर पहले इन्स्टॉल किए गए सॉफ्टवेयर के साथ ही चल रहा है
E. सॉफ्टवेयर कंप्यूटर पर स्थाई रूप से उपलब्ध है।

214. जब तक कम्प्यूटर हस्तलेख को न पहचान ले तब इनपुट डिवाइस को -------
A. सूचना को सेकेंडरी स्टोरेज करना होगा
B. सूचना को ऑप्टीमाइज करना होगा
C. डिजिटाइज़िंग डिवाइस
D. सूचना को स्क्रीन पर दिखाना होगा
E. आउटपुट डिवाइस भी बनाना होगा

215. ..... प्रायः किसी PC में ईमेल अटैचमेंट के जरिए डिलीवरी होते हैं और इन्हे प्रायः नुकसान पहुचाने के लिए डिजाइन किया जाता है?
A. वायरस
B. स्पैम
C. पोर्टल
D. ई-मेल संदेश
E. इनमें से कोई नहीं

216. सारे स्क्रीन पर विंडोज पे डिसप्ले करने वाले बटन को क्या कहते है?
A. स्क्रोल बॉक्स
B. डाउन साइज
C. रिस्टोर डाउन
D. निनिमाइज
E. मैक्सीमाइज

217. किस तरह का सर्वर आईपी पतों को डोमेन नाम में परवर्तित करता है?
A. डीएनएस
B. एमएनएस
C. यूटीपी
D. आरटीपी
E. इनमें से कोई नहीं

218. केन्द्रीय प्रोसेसिंग यूनिट को बाह्य उपकरणों जो कि मल्टीप्लाईंग का प्रयोग करते है से जोड़ने के लिए चैनल का प्रकार है-
A. मॉडम
B. नेटवर्क
C. मल्टीप्लेक्सर
D. ये सभी
E. इनमें से कोई नहीं

219. डिजिटल दूरसंचार शब्द ISDN का पूरा नाम _____ है|
A. Integrated Standard Digital Networks
B. Internet Services Data Network
C. Interactive Standard Dynamic Networks
D. Integrated Services Digital Network
E. इनमें से कोई नहीं

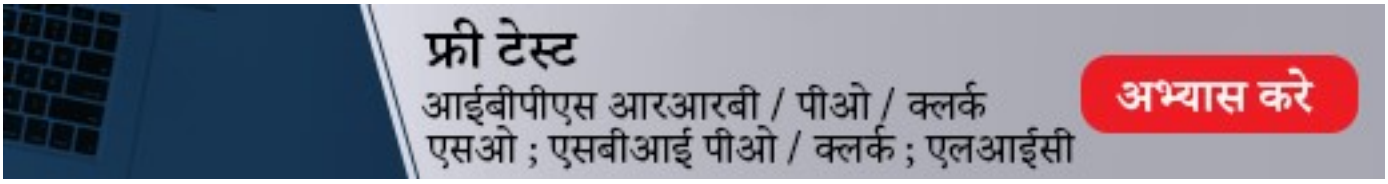

220. सीएडी (CAD) _____ है।
A. कंप्यूटर एडेड डिजाइन
B. कंप्यूटर अल्गोरिथम फॉर डिजाइन
C. कंप्यूटर एप्लीकेशन इन डिजाइन
D. ये सभी
E. इनमें से कोई नही

221. टेलनेट एक _____ पर आधारित कम्प्यूटर प्रोटोकॉल है।
A. साउण्ड
B. टेक्स्ट
C. इमेज
D. एनिमेशन
E. डिजिट्स

222. प्राथमिक कुंजी एक _____ है।
A. आम कुंजी
B. अद्वितीय कुंजी
C. इनपुट कुंजी
D. आउटपुट कुंजी
E. इनमे से कोई नहीं।

223. एक _____ लेबल स्तंभों और पंक्तियों का एक ग्रिड है।
A. डायलॉग बॉक्स (Dialog box)
B. वर्कशीट (Worksheet)
C. क्लिपबोर्ड (Clipboard)
D. टूलबार (Toolbar)
E. इनमें से कोई नही

224. वी डी ए का पूरा नाम क्या है _____.
A. वर्चुअल डेस्कटॉप एक्सेस
B. विसुअल डेस्कटॉप ऐरे
C. वर्चुअल डेस्कटॉप ऐरे
D. विसुअल डेस्कटॉप एक्सेस
E. इनमें से कोई नहीं

225. एक्सेल में CTRL+9 प्रेसिंग है
A. प्रिन्टस 9
B. प्रिन्ट्स
C. प्रिन्टस 9 का स्पेसेज द्वारा पालन
D. करेण्ट लोकेशन पर 9 सेलों को इन्सर्ट करना
E. करेण्ट रो को छिपाना

226. कर्नेल का एक केंद्रीय घटक है _____.
A. ऑपरेटिंग सिस्टम के एक हिस्सा
B. एक ऑपरेटिंग सिस्टम
C. हार्डवेयर
D. रजिस्टर
E. इनमे से कोई नहीं।

227. वर्ड में सेंटर सिलेक्टिड टेक्स्ट के लिए की बोर्ड शॉर्टकट क्या है?
A. Ctrl+Esc
B. Ctrl+C
C. Alt+C
D. इस कार्य के लिए कोई की बोर्ड शॉर्टकट नहीं है
E. Ctrl+E

228. XML का पूर्ण नाम है
A. Extra Markup Language
B. Excellent Markup Language
C. Extensible Markup Language
D. Extended Marking Links
E. इनमें से कोई नहीं

229. एक्सेल दस्तावेज _____ नामक फाइल के रूप में स्टोर किए जाते है।
A. वर्कफोर्स
B. वर्कशीट
C. वर्कटेबल्स
D. वर्कग्रुप्स
E. वर्कबुक्कस

230. किस तकनीक में, डाटा को समान टुकड़ों में तोड़ कर और प्रत्येक टुकड़े को अलाद डिस्क में सुरक्षित करते हुए, भिन्न डिस्क में संग्रहित किया जाता है
A. ईडीआई
B. रेड
C. डिस्क
D. फ्लोपी
E. इनमें से कोई नहीं

231. एक कंप्यूटर जिसमे एनालॉग और डिजिटल दोनों प्रक्रिया होती हैं, उन्हें कहा जाता है -
A. एनालॉग कंप्यूटर
B. डिजिटल कंप्यूटर
C. हाइब्रिड कंप्यूटर
D. मेनफ्रेम कंप्यूटर
E. इनमें से कोई नहीं

232. पिंग कौन से प्रोटोकॉल का इस्तेमाल करता है ?
A. टीसीपी (TCP)
B. एआरपी (ARP)
C. आईसीएमपी (ICMP)
D. बूट पी (BootP)
E. इनमें से कोई नहीं

233. एक हैकर जो इलेक्ट्रॉनिक संसाधन में जानकारी को बदलता या जलीकरण करता है, _____ में शामिल हो रहा है।
A. सेवा से वंचित
B. सूँघने
C. आतंकवाद
D. डेटा बिगड़ने
E. इनमें से कोई नहीं

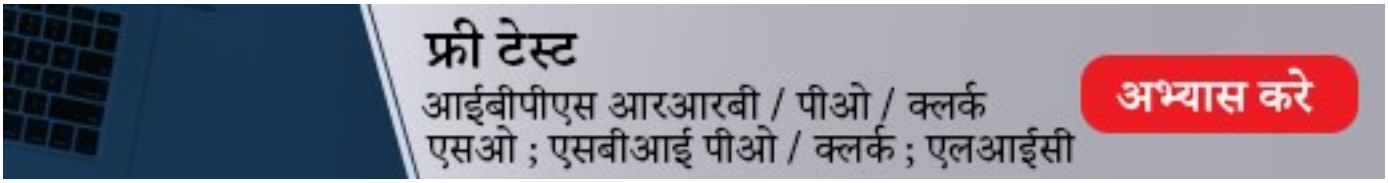

234. सूचनाओं का एक सेट जो किसी प्रक्रिया को आबंटित स्रोत की स्थिति निर्धारित करता है, वह क्या कहलाता है?
A. प्प्रक्रिया नियन्त्रण
B. प्रक्रिया विवरण
C. एएलयू
D. रजिस्टर यूनिट
E. इनमें से कोई नहीं

235. FTP बेहतर है HTTP से क्योंकि _____|
A. यह डाटा ट्रांसमिशन और फ्लो कण्ट्रोल के लिए भिन्न चैनल का प्रयोग करता है
B. यह वेब सर्वर द्वारा डाटा ट्रान्सफर करता है
C. यह सर्वर से डाटा स्थानांतरित करता है
D. यह प्रयोक्ता के हार्डडिस्क से प्रयोकत अद्वारा निश्चित स्थान पर फिल कॉपी करता है
E. इनमें से कोई नहीं

236. _____ दो समान प्रकार के नेटवर्कों से जुड़ा एक कंप्यूटर है।
A. लिंक
B. सर्वर
C. गेटवे
D. ब्रिज
E. इनमें से कोई नहीं

237. इनमें से कौन सा संबंधपरक डेटाबेस मॉडल का गुण नहीं है?
A. टेबल्स
B. ट्रीलाइक स्ट्रक्चर
C. काम्प्लेक्स लॉजिकल रिलेशनशिप
D. रिकॉर्ड
E. इनमें से कोई नहीं

238. एक डाटाबेस वेयरहाउस
A. बहुत से नामकरण समूहों और प्रारूपों को अंतर्विष्ट कर लेता है।
B. महत्वपूर्ण विषय क्षेत्रों के आसपास संगठित रहता है।
C. मात्र करेण्ट डाटा को ही अंतर्विष्ट करता है।
D. एण्ड यूजर्स के द्वारा अपडेट किया जा सकता है।
E. कुछ प्रेक्षित घटनाओं और स्थितियों की व्याख्या करता है।

239. इंटरनेट पर प्रत्येक डिवाइस का एक यूनिक _____ एड्रैस होता है (इसे "इंटरनेट एड्रैस" भी कहते हैं) वह उसी तरह इसकी पहचान करता है जैसे गली का पता घर की पहचान करता है।
A. DH
B. DA
C. IP
D. IA
E. इनमें से कोई नहीं

240. किस तरह के लॉक में कीपैड होता है जोकि क्षेत्रों में उपयोग को नियंत्रित करने के लिए इस्तेमाल किया जा सकता है?
A. सिपहर
B. वार्डेड
C. डिवाइस
D. टम्बलर
E. इनमें से कोई नहीं

***

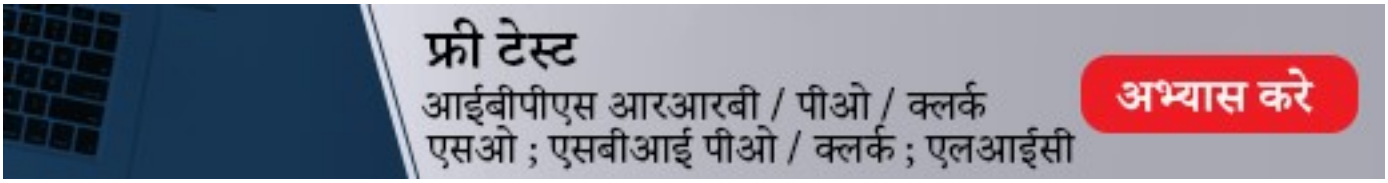

TestSeries

आईबीपीएस आरआरबी / पीओ / क्लर्क / एसओ एसबीआई पीओ / क्लर्क ; एलआईसी ; बीओबी अवं अन्य

ऑनलाइन टेस्ट सीरीज

- नवीनतम परीक्षा पैटर्न के आधार पर
- हिंदी और अंग्रेजी में उपलब्ध है
- ऑल इंडिया रैंक और प्रदर्शन विश्लेषण
- समाधानों का विस्तृत विवरण
- वेब और मोबाइल पर उपलब्ध है

GET IT ON Google Play

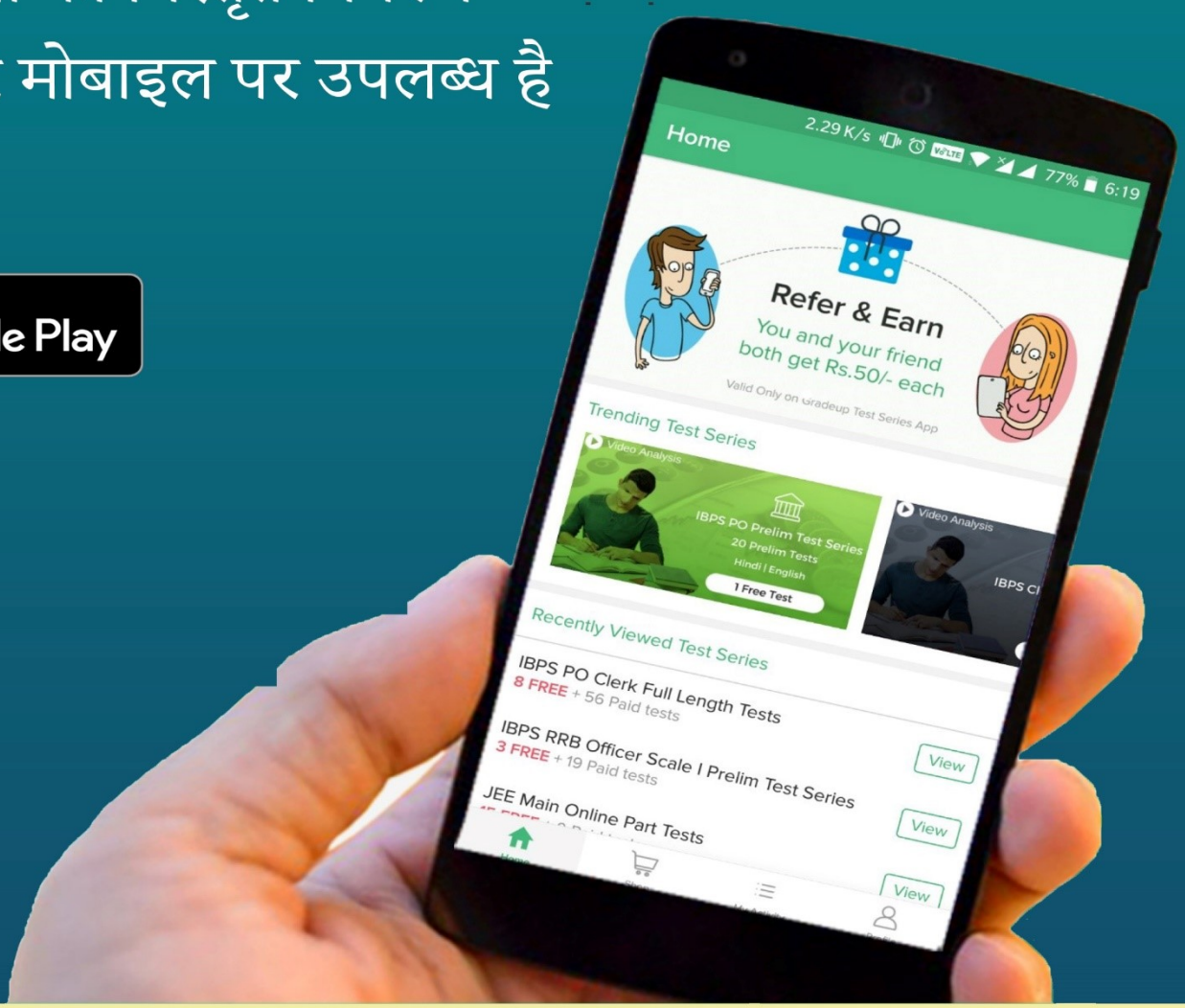

www.gradeup.co